1

تمارين نهاية الأسبـــوع في الرياضيات عباقرة الابتدائي

المدرسَـــةُ : اسمُ ولَقَبُ التّلميـــذ :

أرسُمُ كُراتٍ بِقَدرِ العَددِ المكتوبِ

أرْبِطُ كُلّ بِطاقَـةٍ بما يُناسبها

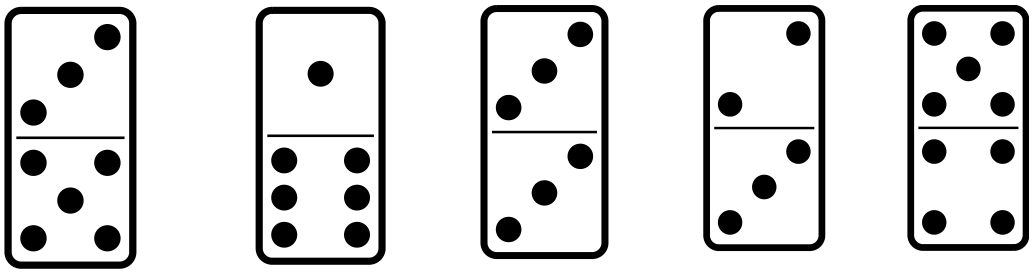

8 5 9 7 6

لوّن قُريصاتٍ بِقَدَرِ العددِ المكتوب في كُلّ بِطاقَـةٍ

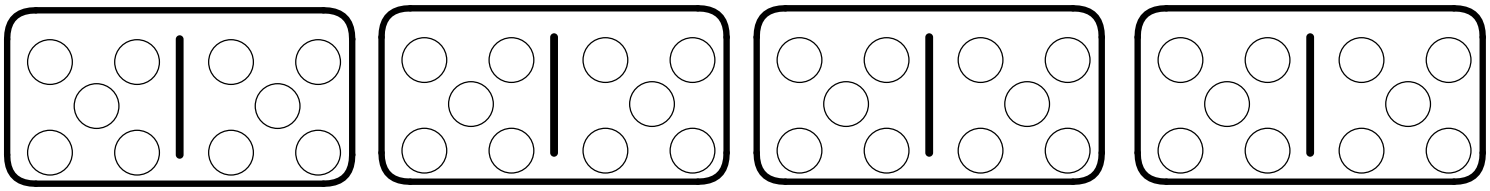

10 9 6 5

أَشْطبُ البِطاقَـةَ غَيْرِ الموافقـة لعددِ الأصابِعِ





www.dzexams.com

تمارين نهاية الأسبـــوع في الرياضيات

المدرسَـــةُ : اسمُ ولَقَبُ التّلميـــذ :

أكمِلُ التّلوينَ بالتّرتيبِ

3 2 5 6 4 1



رتّب المكعبات من الأصغر للأكبر

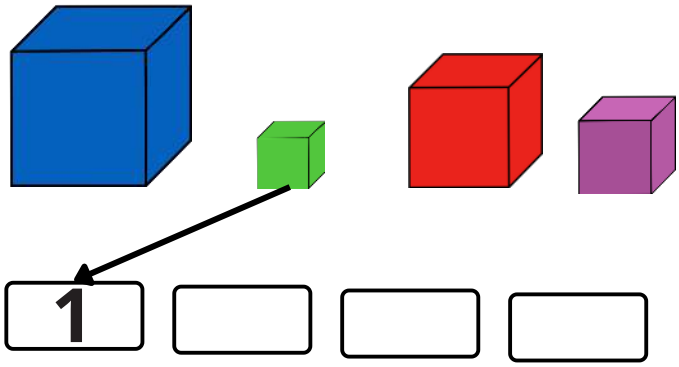

لوّن أقْصَـرَ شَجرةٍ بالأخْضر



أحط أكبـر عدد في كلّ خانة

4	6	7
8		9

3	5	4
2		6

أحط أصْغـر عدد في كلّ خانة

4	6	7
8		9

4	6	7
8		9

أكْمِـلْ



في المزهرية.....

أخذَ أميـرُ ....



بَقِـيَ .....



في الحَقْلِ ..... خروفاً



خَرَجَ ..... خروفاً



بَقِيَ ..... خِرفانٍ

www.dzexams.com