www.dzexams.com

I | كيف نقيس الحجم و الكتلة

1 | الحجم

DÉFINITION

مفهوم الحجم

عند وضع الجسم في الكأس نلاحظ ارتفاع مستوى السائل ،الشيء الذي يدل على أن الجسم احتل حيزا داخل الكأس، يسمى هذا الحيز حجم الجسم الصلب. << حجم جسم هو الحيز الذي يشغله هذا الجسم في الفضاء».

يرمز للحجم Volume بالحرف (V) ووحدته في النظام العالمي هي المتر المكعب m^3

DÉFINITION

السعة

نقول :
سعة الكأس أكثر من سعة الفنجان .
يُسمى مقدار (كمية) السائل الذي يملأ وعاء ماء سعة الوعاء .
حاول أن تُقدِّر !!

كم فنجاناً تحتاجُ لِملءِ هذه الكأس .

مقدار السائل في الفنجان

أقل من مقدار السائل في الكاسة

À RETENIR

نستخدم وحدة اللتر لقياس السعة

أنشطة الملاحظة

قارورة مدرجة

وعاء مدرج

مخبار مدرج

بيشر مدرج



DÉFINITION

قياس حجم سائل

PROPRIÉTÉ

لقياس حجم سائل في المختبرات نستعمل الأوعية المدرجة وأهمها المخبار المدرج


76 mL
160 mL
6.2 mL
7.4 mL

MÉTHODES

طريقة استعمال المخبار المدرج

- نصب السائل في المخبار المدرج ثم ننتظرحتى يستقر سطحه.
- نضع العين ثم نقرأ قراءة عمودية على الأنبوب المدرج القيمة التي توافق الجزء

المستوي من السطح الهلالي للسائل.

- نكتب العدد متبوعا بوحدة القياس المكتوبة على الإناء.

EXEMPLES

$V = 97mL$

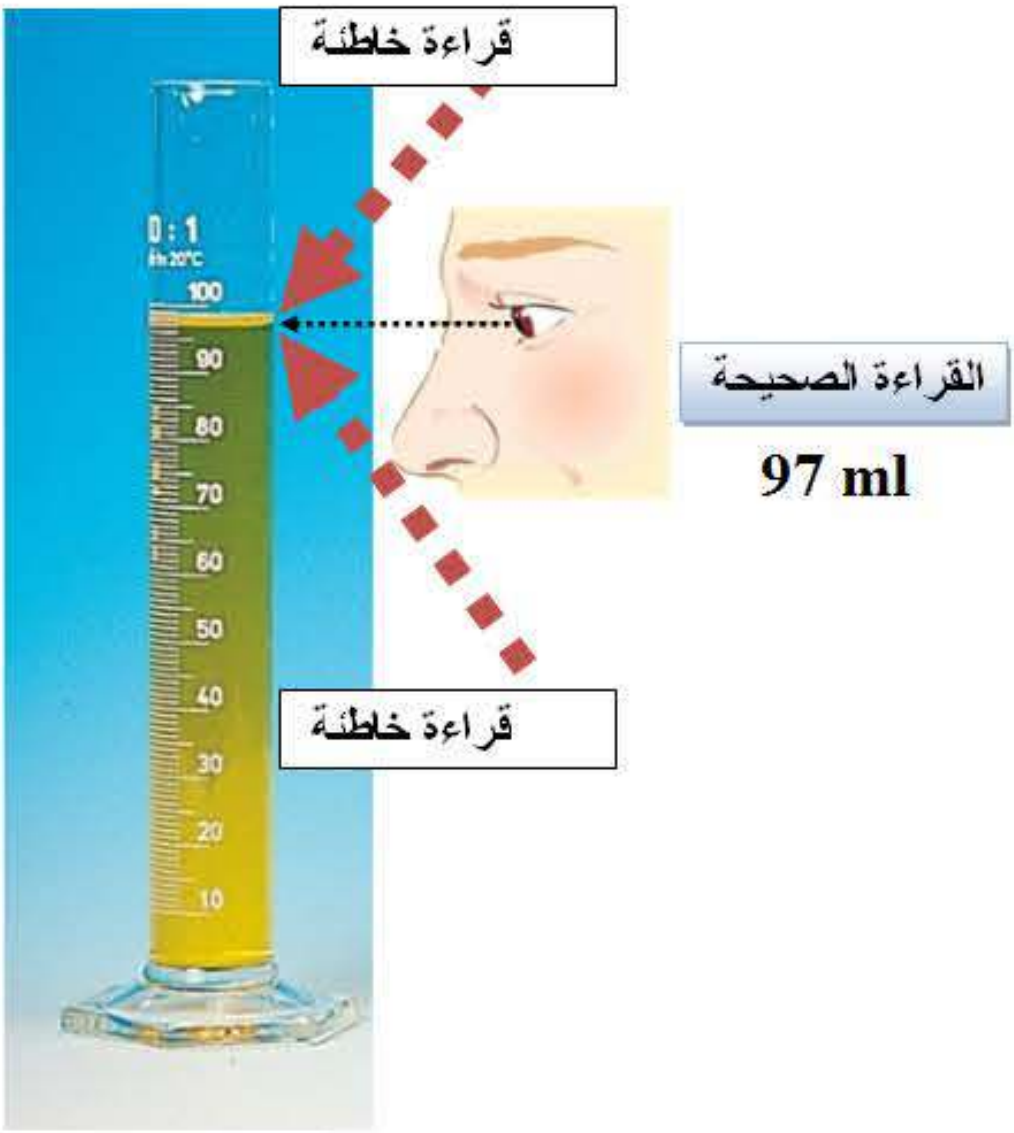
قراءة خاطئة
0:1
100
90
80
70
60
50
40
30
20
10
القراءة الصحيحة
97 ml
قراءة خاطئة

DÉFINITION

قياس حجم جسم صلب

DÉFINITION

الأجسام ذات الأشكال الهندسية المنتظمة

إذا كان الجسم الصلب له شكل هندسي بسيط، نحسب أبعاده ثم نحسب حجمه باستعمال العلاقة الرياضية الموافقة له:

الاسطوانة كرة مكعب متوازي مستطيلات

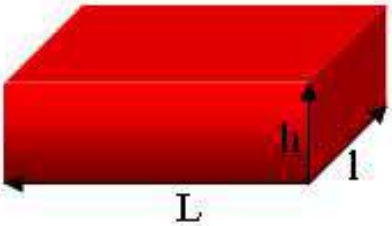

$V = L \, x \, l \, x \, h$



$V = a^3$



$V = \frac{3}{4} \pi r^3$

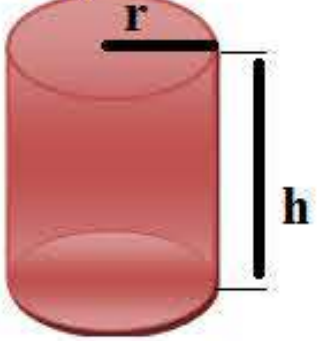

$V = \pi r^2 h$

$\pi = 3.14$

PROPRIÉTÉ

أنت درست سابقاً أننا نعتبر المتر كوحدات لقياس الطول .

ونستخدم المتر المربع وحدة لقياس المساحة .

ونعتبر هنا المكعب الذي طول ضلعه 1 م وحدة لقياس الحجم .

وحدة قياس الطول	1 سم
وحدة قياس المساحة	1 سم^2
وحدة قياس الحجم	1 سم^3

PROPRIÉTÉ

نقول أن وحدة قياس الحجم هي 1 متر مكعب ونرمز لها بالرمز 1 m^3 .

QUESTION

ما هو المكعب ؟

يُقاس حجم المكعب ، بضرب طول ضلعه بنفسه 3 مرات : الضلع x الضلع x الضلع (m^3 = m x m x m)

مكعب

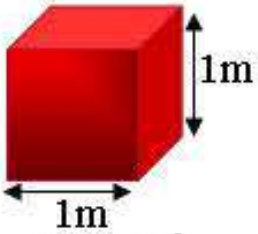

$V = m^3$

PROPRIÉTÉ

نحتاج في حياتنا اليومية ، إلى استخدام وحدات أصغر من الـ (m^3 لقياس الحجوم ، ومن
هذه الوحدات الميليمتر(mm^3) المكعب و السنتيمتر المكعب والديسيمتر المكعب .....
تعرّفت سابقاً إلى وحدة القياس الطولي الديسيمتر .) 1 دسم = 10 سم فإذا
رسمت مكعباً طول ضلعه 1 دسم أي (10 سم) فإن حجم هذا المكعب هو 10سم × 10
سم × 10 سم = 1000 سم3 .

$$1\ m^3 = 1000\ dm^3\ ;\ 1\ dm^3 = 1000\ cm^3\ ;\ 1\ m^3 = 1\ 000\ 000\ cm^3$$

يعطي الجدول التالي مختلف وحدات الحجم والعلاقة بينها

Km³			Hm³			dam³			m³			dm³			cm³			mm³		

EXEMPLES

حول
$82\ m^3$ إلى cm^3

Km³			Hm³			dam³			m³			dm³			cm³			mm³		
										8	2	0	0	0	0	0	0			

$$82\ m^3 = 82\ 000\ 000\ cm^3$$

EXEMPLES

حول
$56\ mm^3$ إلى cm^3

Km³			Hm³			dam³			m³			dm³			cm³			mm³		
																	0,	0	5	6

$$56\ mm^3 = 0.056\ cm^3$$

الجدول التالي يوضح العلاقة بين وحدات الحجم و السعة

.....

Km³			Hm³			dam³			m³			dm³			cm³			mm³		
											kl	hl	dal	l	dl	cl	ml			

جدول تحويل وحدات الحجم

1 kL	1 hL	1 daL	1 L	1 dL	1 cL	1 mL
1 m³			1 dm³			1 cm³

DÉFINITION

الأجسام ذات الأشكال الهندسية غير المنتظمة

MÉTHODES

طريقة الغمر

في هذه الحالة إذا كان الجسم الصلب غير قابل للذوبان في السائل و غير قابل لامتصاصه

نستعمل المخبار المدرج:

V : حجم الجسم الصلب

V_0: حجم السائل في المخبار المدرج.

V_1 : حجم السائل و الجسم الصلب معا.

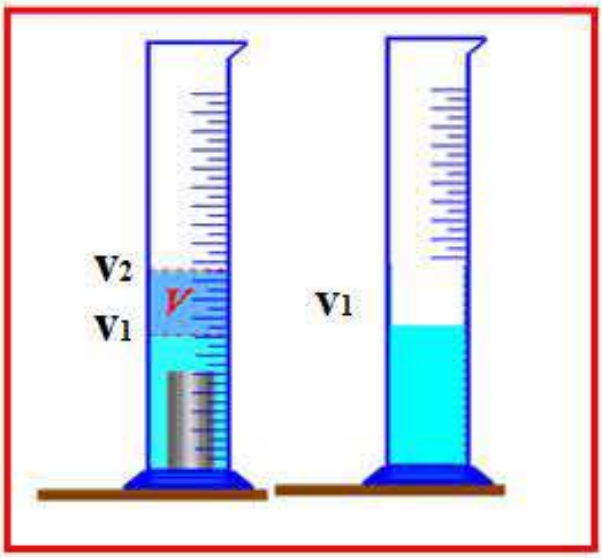

FORMULE

حجم الجسم الصلب إذن هو

$$V = V_2 - V_1$$

DÉFINITION

الشكل و الحجم

للجسم السائل حجم ثابت و شكل متغير يأخذ شكل الإناء الذي يوجد فيه.

للجسم الصلب حجم و شكل ثابتين.

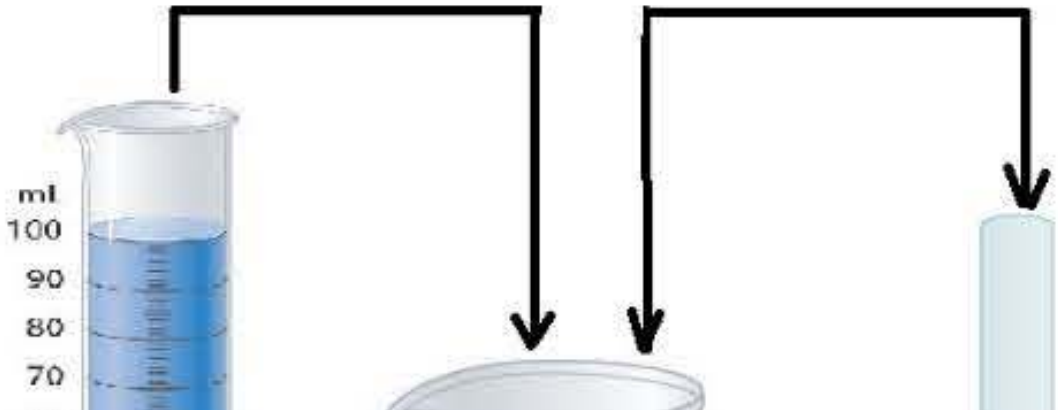
ml
100
90
80
70

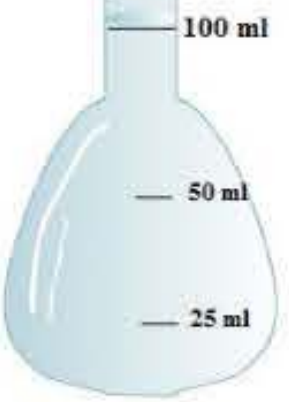
100 ml
50 ml
25 ml

قارورة مدرجة


100ml
90
80
70
60
50
40
30
20
10

كأس مدرج


60
50
40
30
20
10

مخبر مدرج

II | الكتلة

DÉFINITION

قياس كتلة السوائل و الأجسام الصلبة

DÉFINITION

مفهوم الكتلة

الكتلة مقدار ثابت تمثل كمية المادة المكونة للجسم ويرمز لها بالحرف m (masse) ووحدتها العالمية هي الكيلوغرام و يرمز لها بـ Kg لقياس كتلة جسم نستعمل الميزان (ميزان الكفتين؛ ميزان إلكتروني...) و كتلا معلمة ومجزأة.



ميزان روبارفال

Scout Pro
0.00

ميزان إلكتروني

ميزان حساس

ميزان روماني

REMARQUE

الكتل المعلمة هي التي قيمها تساوي أو تفوق الغرام أما التي قيمها أصغر من الغرام تسمى الكتل المجزأة.

كوحدات أخرى للكتلة نجد مضاعفات وأجزاء الكيلوغرام:

kg	hg	dag	g	dg	cg	mg

EXEMPLES

حول

20.5g إلى mg

kg	hg	dag	g	dg	cg	mg
		2	0	5	0	0

20.5g =20500mg

EXEMPLES

حول

104mg إلى g

kg	hg	dag	g	dg	cg	mg
			0 ,	1	0	4

104 mg = 0,104 g

DÉFINITION

قياس كتلة جسم صلب

لقياس كتلة جسم صلب نتبع الخطوات التالية :

- نضع الجسم المراد قياس كتلته في كفة و الكتل المعلمة في الكفة الأخرى
- عندما تكون الكفتان في حالة توازن ، نقول أن كتلة الجسم تساوي مجموع الكتل المعلمة

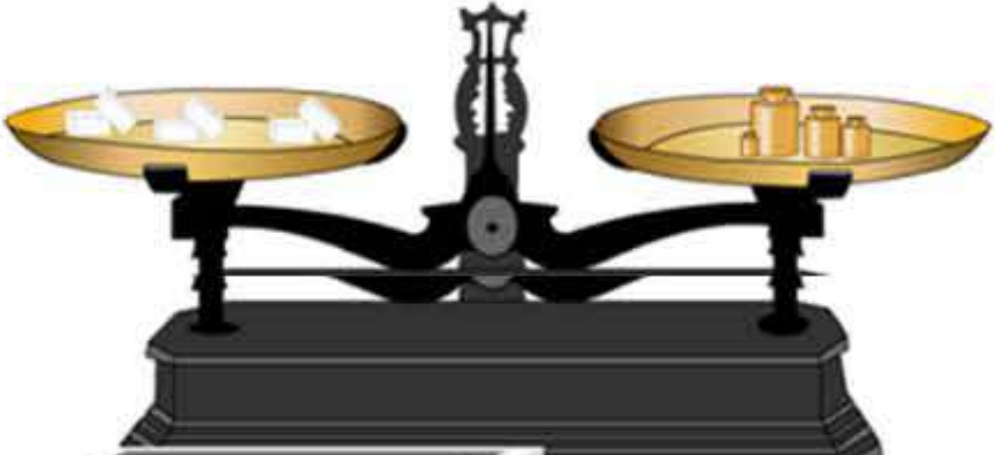

Salut lonis
2 morceaux
2 morceaux
2 morceaux

كتلة 6 قطع سكر

36 g



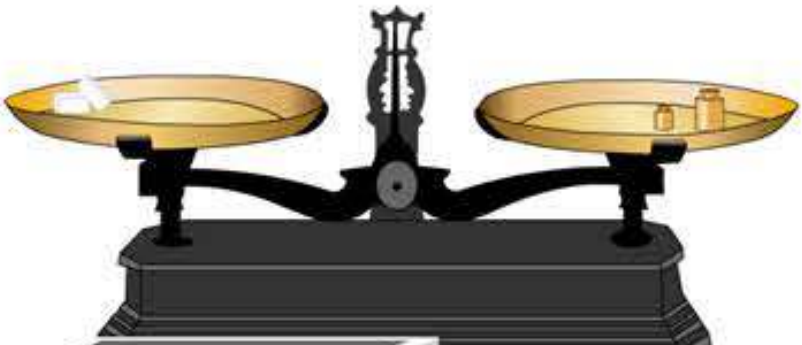

Salut lonis
2 morceaux
2 morceaux
2 morceaux

كتلة قطعتي سكر

تساوي 12 g



DÉFINITION

قياس كتلة جسم سائل

لقياس كتلة جسم سائل نتبع الخطوات التالية: نقيس كتلة الكأس الفارغ $m_1 = 49.1g$

نصب السائل المراد قياس كتلته في الكأس $m_2 = 102.5g$


eau
102.5
off
on
TARE
49.1
off
on
TARE

FORMULE

$$m = m2 - m1$$

PROPRIÉTÉ

كتلة السائل إذن هي:

$$m = 102.5 - 49.1 = 53.4\ g$$

DÉFINITION

الكتلة والشكل

- نقيس كتلة قطعة من العجين قبل وبعد تشويهها
- نقيس كتلة حجم معين من سائل بعد صبه في أنائين مختلفي الشكل

لا تتغير كتلة الأجسام عند تغيير شكلها

قطعة العجين
9329 g

قطعة العجين
بعد تغيير شكلها
9329 g

III | تحديد درجة الحرارة

1 | تعيين درجة الحرارة

EXPÉRIENCES

نأخذ كأسين أحدهما يحتوي على ماء بارد والآخر على ماء دافئ، ثم ندخل اليد اليمنى في الكأس الأول واليد اليسرى في الكأس الثاني. بعد ذلك ندخل اليد اليمنى في الدافئ.

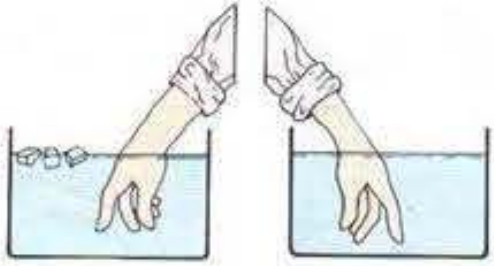

REMARQUE

- نحس باليد اليمنى أن الماء الموجود في الكأس الأول بارد، بينما نحس باليد اليسرى أن الماء الموجود في الكأس الثاني دافئ.
- عند إخراج اليد المنى من الماء البارد وإدخالها في الماء الدافئ نحس أن ساخن.
- تمكننا حاسة اللمس من التمييز بين الماء الساخن والماء البارد ، ولكنها لا تمكننا من تحديد قيمة درجة الحرارة ،لذلك نلجأ إلى استعمال أداة تساعدنا على تعيين درجة حرارة جسم ما ، وهي المحرار Thermomètre .

يرمز لدرجة الحرارة ب t أو θ (تقرأ téta) ولوحدة قياسها (درجة سلسيوس Degré Celsuis) بالرمز °C.

PROPRIÉTÉ

إسم كل محرار

توجد أنواع مختلفة من المحارير من بينها :

- **المحرار** الطبي : يتميز بساق مدرجة من35°C إلى42°C وأنبوب دقيق جدا يحول دون نزول السائل المحراري بسرعة مما يسمح من تعيين درجة الحرارة و المحرار خارج الجسم
- **محرار** درجتي الحرارة الدنيا والعليا : يستعمل في مراكز الأرصاد الجوية ويمكن من تعيين درجتي الحرارة الدنيا والعليا لفترة معينة وفي مكان معين.
- **محرار** إلكتروني : يحتوي على مجسات إلكترونية وشاشة رقمية.
- **محرار** ذو إبرة وميناء .

0
10
20
30
40
50
60
70
80
90
100

المعدني

F
C
120
100
80
60
40
20
0
-20
-40
50
40
30
20
10
0
-10
-20
-30
-40

الكتروني
الطبي

DÉFINITION

وصف المحرار ذو السائل


50
40
30
20
10
0
10
20
ساق مدرجة
أنبوب دقيق
سائل محراري
خزان

REMARQUE

- يمكن أن يكون السائل المحراري زئبقا أو كحولا أو كيروزينا.

DÉFINITION

تعيين درجة الحرارة

لتعيين درجة حرارة سائل باستعمال المحرار ذي السائل نتبع الخطوات التالية:

- ندخل خزان المحرار رأسيا في السائل دون أن يلامس جوانب أو قعر الإناء.
- نحرك السوائل والغازات لتوحيد درجة الحرارة.
- ننتظر حتى يستقر مستوى السائل المحراري .
- نضع العين عند مستوى هذا السطح الحر للسائل.
- نقرأ درجة الحرارة دون إخراج المحرار من الجسم.
- نكتب القيمة المقروءة متبوعة بوحدة القياس. مثلا $\theta=32°C$

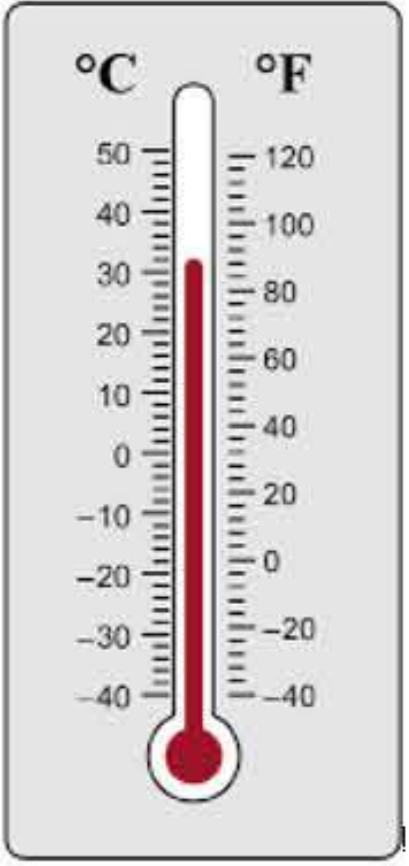
°C
°F
50
40
30
20
10
0
−10
−20
−30
−40
120
100
80
60
40
20
0
−20
−40

IV | القدم القنوية

أ | مكونات جهاز القدم القنوية :

مكونات جهاز القدم القنوية :

يمثل الشكل التالي جهاز القدم القنوية
يتكون جهاز القدم القنوية من جزئين أساسين:

DÉFINITION

الجزء الثابت:

ويحتوي على فك ثابت متصل بمسطرة القياس الرئيسي. عادة ما تكون مسطره القياس الرئيسي مدرجه بالمليمتر (mm)
نقرأ على مسطرة القياس الرئيسي المليمترات الصحيحة.

DÉFINITION

الجزء المتحرك:

وهو على شكل منزلقة تحمل الفك المتحرك أو الفرنية و تكون مدرجه بأجزاء المليمتر المتمثل في دقه الجهاز.
تمكن الفرنية من قراءة الكسور الموجودة على مسطرة القياس الرئيسي بدقة قياس عالية.
عاده ما تكون هذه الدقة بـ: (0.1=1/10مم) أو (0.05=1/20 مم) أو (مم 0.02= 1/50).


0
4
8
1/128in
2
3
40
50
60
70
80
90
0 1 2 3 4 5 6 7 8 9 10
0.05mm

ب | استعمالات القدم القنوية

1 -الأبعاد الخارجية:

2-الأبعاد الداخلية

3 - أعماق الثقوب

ت | طريقة قراءة قياس القدم القنوية :

MÉTHODES

أولا :

نظر إلى الجزء المتحرك وبالتحديد إلى موقع الصفر ونقرأ العدد الذي على يساره والمسجل

على مسطره القياس الرئيسي. نسجل قيمه القراءة .

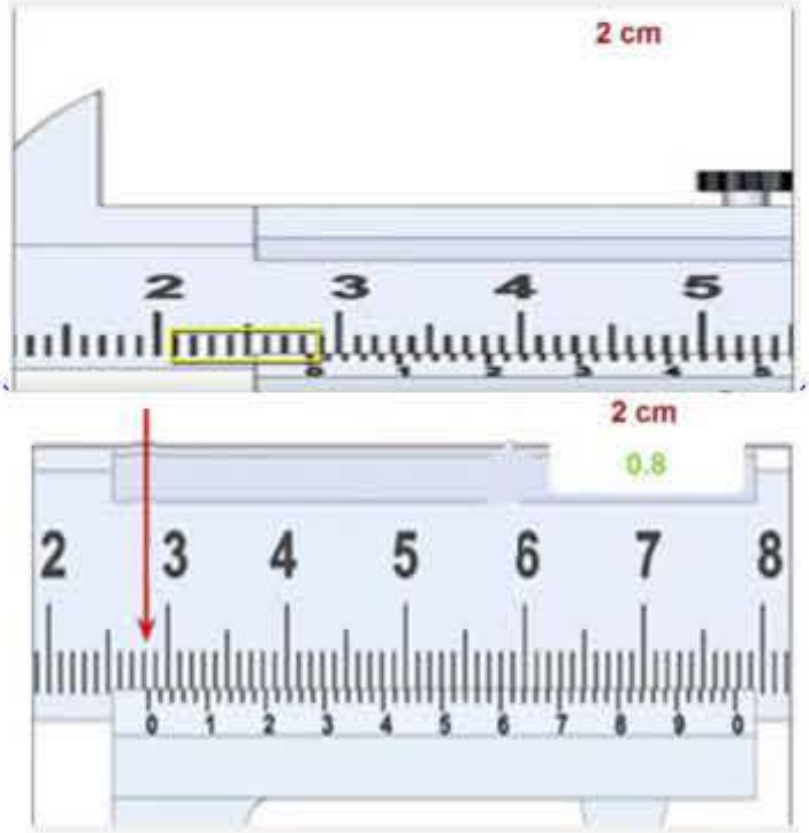
2 cm
2
3
4
5
2 cm
0.8
2
3
4
5
6
7
8
0
1
2
3
4
5
6
7
8
9
0

MÉTHODES

ثانيا

نتظر إبتداءاً من صفر المسطرة ونحدد أول تطابق تام بين تدرجي المسطرة الثابتة و الفرنية ثم نقرأ عدد تدرج الفرنية المسجلة مع التطابق ، يضرب هذا العدد في دقة القدم القنوية

يكون حاصل جمع قيمة (B) وقيمة (A) نتيجة قيمة القياس على جهاز القدم القنوية.

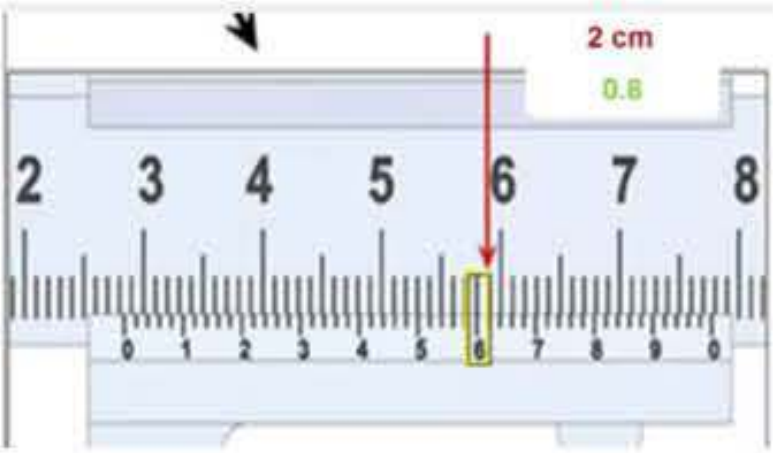
2 cm
0.8
2
3
4
5
6
7
8
0
1
2
3
4
5
6
7
8
9
0

صورة توضح الطريقة الصحيحة لقراءة القياس على القدم القنوية

القياس الرئيسي	A	**m c2.8**
قياس الفرنيه	**B**	**0.06 cm**
قيمه القياس على	**A+B**	cm2.86 **+ 0.06 = 2.8**

		الجهاز

EXEMPLES

مثال تطبيقي

24 mm = 2.4 cm	A	القياس الرئيسي
31 x 0.02 mm = 0.62 mm	B	قياس الورنيه
24 + 0.62 = 24.62 mm	A+B	قيمه القياس على الجهاز

أ - التدريب 1


6
3 4 5 6 7 8 9
0 1 2 3 4 5 6 7 8 0.02 9 mm 0

قيمة القياس = 3.46 cm

ب - القراءة 2


4 5
3 4 5 6 7 8 9
0 1 2 3 4 5 6 7 8 0.02 9 mm 0

قيمة القياس = 3.74 cm

ج - القراءة 3


0 4 8
1/128in.
0 1 2
0 10 20 30 40 50
0 1 2 3 4 5 6 7

قيمة القياس = 24.4 mm

٧ | بعض الأدوات المستعملة في المخبر

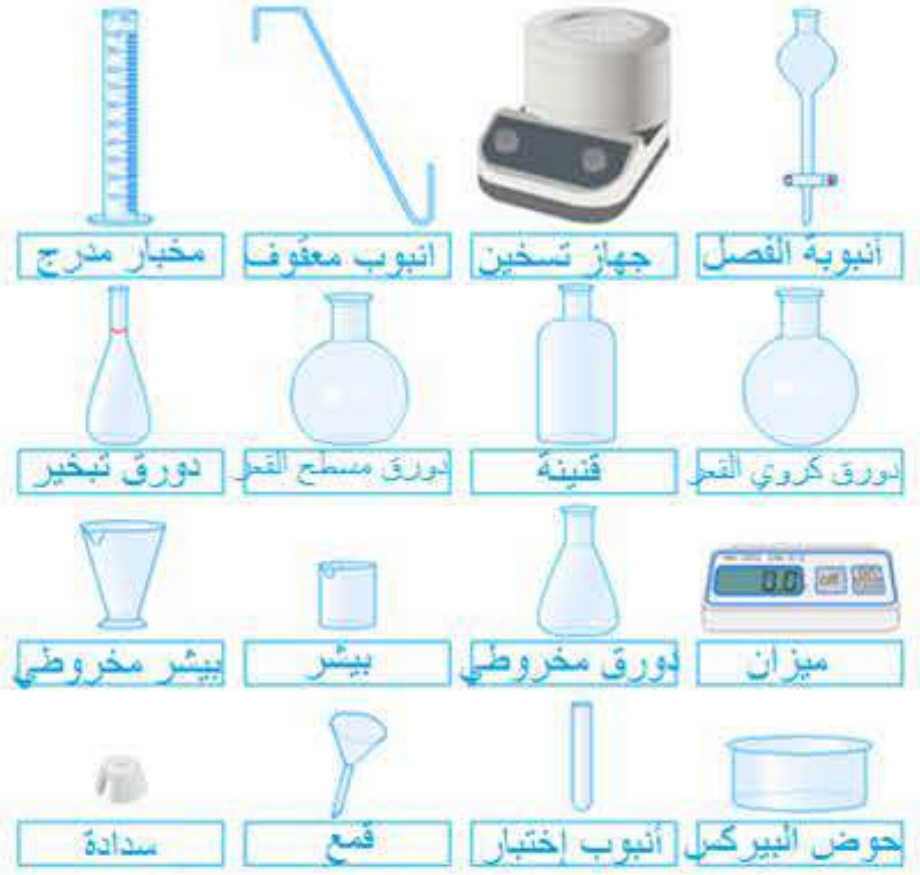
أنبوبة الفصل
جهاز تسخين
انبوب معقوف
مخبار مدرج
دورق كروي القعر
قنينة
دورق مسطح القعر
دورق تبخير
ميزان
دورق مخروطي
بيشر
بيشر مخروطي
حوض البيركس
أنبوب إختبار
قمع
سدادة