اختبار في مادة الرياضيات

التمرين الأول ☹☺(04 نقاط)

1) حل في مجموعة الأعداد المركبة $\mathbb{C}$ المعادلة ذات المجهول المركب z التالية : $z^2-8z+17=0$.

2) في المستوي المركب المنسوب إلى المعلم المتعامد و المتجانس المباشر $\left(O,\vec{u},\vec{v}\right)$ نعتبر النقط D,B,A التي لواحقها على الترتيب $a=4-i$ ، $b=4+i$ و $d=-i$.

و ليكن R الدوران الذي مركزه النقطة Ω ذات اللاحقة $\omega=2$ و زاويته $\frac{\pi}{2}$

أ) بين أنَ العبارة المركبة للدوران R من الشكل : $z'=iz+2-2i$.

ب) تحقق أنَ لاحقة النقطة C صورة النقطة B بالدوران R هي $c=1+2i$.

ج) بين أنَ : $\frac{c-d}{c-b}=-i$ ثم أستنتج طبيعة المثلث BCD.

د) بين أنَ النقط C,B,A و D تنتمي الى نفس الدائرة يطلب تعيين مركزها نصف قطرها .

ه) عين (E) مجموعة النقط M من المستوي ذات اللاحقة z بحيث يكون ، $|-i-z|^2-|4-i-z|^2=16$.

التمرين الثاني ☹ ☺(05 نقاط)

في الفضاء المنسوب الى المعلم المتعامد و المتجانس $\left(O,\vec{i},\vec{j},\vec{k}\right)$ نعتبر النقطتين $A(2,1,1)$ ، $I(3,-1,0)$ و

(P) مجموعة النقط $M(x,y,z)$ من الفضاء التي تحقق، $MA^2-\overrightarrow{MA}.\overrightarrow{MI}=0$

1) أ) بين أن النقطة A تنتمي الى المجموعة (P) .

ب) بين أن المجموعة (P) هي مستو $x-2y-z+1=0$ معادلة ديكارتية له.

2) لتكن (S) سطح كرة مركزها النقطة I وتمر من النقطة A.

- تحقق أن نصف قطر سطح الكرة (S) هو $R=\sqrt{6}$ ثم عين معادلة ديكارتية لسطح الكرة (S)

3) ليكن (P') المستوي ذي المعادلة $2x-y+z-4=0$.

أ) بين أن (P') يقطع (S) وفق دائرة (C) يطلب تعيين مركزها H ونصف قطرها r.

ب) لتكن $B(2;-2;-2)$ نقطة من الفضاء تحقق من أن القطعة $[AB]$ أحد أقطار الدائرة (C).

ج) أكتب معادلة ديكارتية للمستوي (Q) المماس لسطح الكرة (S) في النقطة B .

www.dzexams.com

التمرين الثالث ☺☺ (04 نقاط)

1) أدرس حسب قيم العدد الطبيعي n، بواقي القسمة الاقليدية للعدد 5^n على العدد 7.

2) عين قيم العدد الطبيعي n بحيث يكون العدد $19^{6n+3}-5^{6n+4}+4n^2+1$ قابلا للقسمة على العدد 7.

3) N عدد طبيعي يكتب $\overline{1xx0}$ في نظام التعداد ذي الأساس 5. حيث x عدد طبيعي.

أ) عين قيم العدد الطبيعي x حتى يكون العدد N قابلا للقسمة على 35.

ب) أكتب العدد N في النظام العشري.

التمرين الرابع☹ ☺ (07 نقاط)

نعتبر الدالة العددية f المعرفة على المجال $]0;+\infty[$ بـ : $f(x)=x+3\ln\left(\frac{x^2+2}{3x}\right)$

نسمي (C_f) المنحني الممثل لها في المستوي المنسوب إلى المعلم المتعامد و المتجانس $(O,\vec{i},\vec{j})$.

I. 1) أحسب نهايتي الدالة f عند 0 وعند $+\infty$.

2) بين أنه من أجل كل عدد موجب تماما x، $f'(x)=\frac{(x-1)(x^2+4x+6)}{x(x^2+2)}$ ثم استنتج اتجاه تغير الدالة f

3) شكل جدول تغيرات الدالة f.

4) أدرس الوضع النسبي للمنحني (C_f) بالنسبة الى المستقيم (Δ) ذي المعادلة $y=x$.

5) أحسب $f(4)$ ثم أرسم (Δ) و (C_f).

II. نعتبر المتتالية العددية $(u_n)_{n\in\mathbb{N}}$ المعرفة بـ : $u_0=\frac{3}{2}$ و من أجل كل عدد طبيعي n، $u_{n+1}=f(u_n)$.

1) برهن أنه من أجل كل عدد طبيعي n، $1<u_n<2$.

2) أدرس رتابة المتتالية $(u_n)_{n\in\mathbb{N}}$ ثم استنتج أنها متقاربة.

3) عين نهاية المتتالية $(u_n)_{n\in\mathbb{N}}$.

✌بالتوفيق و النجاح☹في البكالوريا☺ جوان 2015 ❀أستاذ المادة

www.dzexams.com

ثانوية بلحاج قاسم نورالدين الشلف — التاريخ : 30/ 04 / 2015 — السنة الدراسية: 2014 / 2015

المستوى: 3 ثانوي — الشعبة: رياضيات — الموضوع الثاني

اختبار في مادة الرياضيات

التمرين الأول ☹☺☹(05 نقاط)

1) حل في مجموعة الأعداد المركبة $\mathbb{C}$ المعادلة ذات المجهول المركب z التالية :

$\left(z^2+2z+4\right)\left(z^2-2\sqrt{3}z+4\right)=0$.

2) في المستوي المركب المنسوب إلى المعلم المتعامد و المتجانس المباشر $\left(O,\vec{u},\vec{v}\right)$ نعتبر النقط A,B,C و D التي لواحقها على الترتيب $z_A=\sqrt{3}+i$, $z_B=\overline{z_A}$, $z_C=-1-i\sqrt{3}$ و $z_D=\overline{z_C}$.

أ) أكتب الأعداد المركبة z_A,z_B,z_C و z_D على الشكل الأسي .

ب) بين أن النقط A,B,C و D تنتمي الى نفس الدائرة (C) يطلب تعيين عناصرها .

ج) بين أنَ : $\frac{z_D-z_B}{z_A-z_C}=i$ ثم عين قيسا للزاوية الموجهة $\left(\overrightarrow{CA},\overrightarrow{BD}\right)$.

ماذا تستنتج بالنسبة للمستقيمين (AC) و (BD)؟

3) نعتبر العدد المركب z_n الذي طويلته $\frac{1}{2^n}$ و $\frac{2n\pi}{3}$ عمدة له ، حيث n عدد طبيعي .

ونعرف العدد المركب L_n بـ : $L_n=z_D\times z_n$.

أ) أكتب كلا من العددين L_1,L_0 على الشكل الجبري .

ب) لتكن (u_n) المتتالية العددية المعرفة بـ: $u_n=|L_n|$ من أجل كل عدد طبيعي n.

- بين أن المتتالية (u_n) هندسية يطلب تعيين أساسها و حدها الأول .
- لتكن النقط $M_0,M_1,...,M_n$ صور الأعداد المركبة $L_0,L_1,...,L_n$ على الترتيب .

أحسب بدلالة n المجموع ، $S_n=\left\|\overrightarrow{OM_0}\right\|+\left\|\overrightarrow{OM_1}\right\|+...+\left\|\overrightarrow{OM_n}\right\|$ ثم أحسب $\lim\limits_{n\to+\infty}S_n$

التمرين الثاني ☹☺☺ (04 نقاط)

الفضاء منسوب إلى معلم متعامد ومتجانس $O,\vec{i},\vec{j},\vec{k}$ نعتبر النقط $A\ 1;2;3$, $B\ 0;1;4$, $C\ -1;-3;2$ و $D\ 4;-2;5$ و الشعاع $\vec{n}=2\vec{i}+a\vec{j}+b\vec{k}$ حيث b,a عددان حقيقيان .

1. أ) بين أن النقط A,B,C تعين مستويا ABC .

ب)عين العددين الحقيقيين b,a بحيث يكون الشعاع $\vec{n}$ ناظميا للمستوي ABC ثم عين معادلة ديكارتية للمستوي ABC .

2. ليكن المستقيم Δ ذي التمثيل الوسيطي: $\begin{cases}x=2-2t\\ y=-1+t;\quad t\in\mathbb{R}\\ z=4-t\end{cases}$

أ) بين أن النقطة D تنتمي إلى المستقيم Δ وأن المستقيم Δ عمودي على المستوي ABC .

ب) عين إحداثيات النقطة H المسقط العمودي للنقطة D على المستوي ABC .

ج) أحسب المسافة بين النقطة D والمستوي ABC .

د) بين أن النقطة H هي مركز ثقل المثلث ABC.

3. أدرس تقاطع المستقيم Δ مع المستوي $O,\vec{i},\vec{j}$.

www.dzexams.com

التمرين الثالث ☹☹☹ (04 نقاط)

1) أدرس حسب قيم العدد الطبيعي n بواقي القسمة الاقليدية للعدد 2^n على العدد 5.

2) عين باقي القسمة الاقليدية للعدد $\left(2017^{4n+3}-2\times 2016^{8n}+2014^{2n+1}\right)$ على العدد 5 حيث n عدد طبيعي.

3) بين أن العدد 131 أولي .

4) عين الأعداد الطبيعة n التي تحقق : $\begin{cases} 3m+7d=2^n-48 \\ ab=5m \end{cases}$

حيث ، $d=PGCD(a,b)$ و $m=PPCM(a,b)$.

5) عين قيم n بحيث يكون ، $7<n<15$ ثم استنتج الثنائيات $(a;b)$.

التمرين الرابع☹ ☺☹ (07 نقاط)

نعتبر الدالة العددية f المعرفة على المجموعة $\mathbb{R}$ بـ : $f(x)=(1-2x)e^{2x}$

نسمي (C_f) المنحني الممثل لها في المستوي المنسوب إلى المعلم المتعامد و المتجانس $(O,\vec{i},\vec{j})$.(وحدة الطول $2cm$)

I. 1) أحسب نهايتي الدالة f عند $-\infty$ وعند $+\infty$.

2) أحسب عبارة $f'(x)$ من أجل كل عدد حقيقي x ، ثم استنتج اتجاه تغير الدالة f .

3) شكل جدول تغيرات الدالة f .

4) حل المعادلة $f(x)=0$ ثم استنتج نقاط تقاطع (C_f) مع محور الفواصل.

5) أحسب $f(1)$ ثم أرسم (C_f).

6) ناقش حسب قيم الوسيط الحقيقي m عدد و إشارة حلول المعادلة ذات المجهول الحقيقي x التالية :
$(E): f(x)=f(m)$

7) أ) عين العددين الحقيقيين b,a بحيث تكون الدالة F المعرفة بـ : $F(x)=(ax+b)e^{2x}$ دالة أصلية للدالة f على $\mathbb{R}$.

ب) أحسب بـ cm^2 و بدلالة λ المساحة $S(\lambda)$ للحيز المستوي المحدد بالمنحني (C_f) و المستقيمات التي معادلاتها : $x=\frac{1}{2}, y=0$ و $x=\lambda$ حيث $\lambda<\frac{1}{2}$ ثم أحسب $\lim\limits_{\lambda\to-\infty} S(\lambda)$.

II. نسمي $f'=f^{(1)}, f''=f^{(2)}, f'''=f^{(3)},...,f^{(n)}$ المشتقات المتتابعة للدالة f .

1) برهن بالتراجع أنه من أجل كل عدد طبيعي غير معدوم n ، $f^{(n)}(x)=2^n(1-n-2x)e^{2x}$.

2) من أجل كل عدد طبيعي غير معدوم n المنحني $\left(C_{f^{(n)}}\right)$ الممثل للدالة $f^{(n)}$ حيث $f^{(n)}$ الدالة المشتقة من الرتبة n للدالة f يقبل مماسا يوازي حامل محور الفواصل في النقطة $M_n(x_n;y_n)$.

أ) أحسب بدلالة n كلا من x_n و y_n .

ب) بين أن المتتالية (x_n) حسابية يطلب تعيين أساسها و حدها الأول . أحسب $\lim\limits_{n\to+\infty} x_n$.

ج) بين أن المتتالية (y_n) هندسية يطلب تعيين أساسها و حدها الأول . أحسب $\lim\limits_{n\to+\infty} y_n$

✌بالتوفيق و النجاح ☹في البكالوريا☺☺ جوان 2015 ❀أستاذ المادة

www.dzexams.com

☜ تصحيح الموضوع التجريبي الأول للبكالوريا 2015 – الشعبة : رياضيات

التصحيح	العلامة
☜ التمرين الأول :	
1) حل في مجموعة الأعداد المركبة $\mathbb{C}$ المعادلة ذات المجهول المركب z التالية : $z^2-8z+17=0$.	
• **حل المعادلة :** $z^2-8z+17=0$ - حساب المميز Δ : $\Delta=(-8)^2-4(1)\times(17)=-4$ أي $\Delta=(2i)^2$ - المعادلة تقبل حلين هما : $z_1=\frac{8-2i}{2}=4-i$ ، $z_2=\frac{8+2i}{2}=4+i$ مجموعة الحلول: $S=\{4-i;4+i\}$	$0.5+2\times0.25$
2) في المستوي المركب المنسوب إلى المعلم المتعامد و المتجانس المباشر $(O,\vec{u},\vec{v})$ نعتبر النقط A,B,D التي لواحقها على الترتيب $a=4-i$ ، $b=4+i$ و $d=-i$. و ليكن R الدوران الذي مركزه النقطة Ω ذات اللاحقة $\omega=2$ و زاويته $\frac{\pi}{2}$ أ) بين أنَ العبارة المركبة للدوران R من الشكل : $z'=iz+2-2i$.	
• **تبيان أن العبارة المركبة للدوران R من الشكل : $z'=iz+2-2i$:** - العبارة المركبة للدوران R من الشكل : $z'-\omega=e^{i\frac{\pi}{2}}(z-\omega)$ أي $z'-2=i(z-2)$ ومنه $z'=i(z-2)+2=iz+2-2i$ **إذن** $z'=iz+2-2i$	0.75
ب) تحقق أنَ لاحقة النقطة C صورة النقطة B بالدوران R هي $c=1+2i$	
• **التحقق أن لاحقة النقطة C صورة النقطة B بالدوران R هي $c=1+2i$:** • لدينا : $R(B)=C$ يعني $c=i\times b+2-2i=i(4+i)+2-2i=4i-1+2-2i=1+2i$ $c=1+2i$	0.25
ج) بين أنَ : $\frac{c-d}{c-b}=-i$ ثم أستنتج طبيعة المثلث BCD.	
• **تبيان أن $\frac{c-d}{c-b}=-i$:** - لدينا : $\frac{c-d}{c-b}=\frac{1+2i-(-i)}{1+2i-(4+i)}=\frac{1+3i}{-3+i}=\frac{(1+3i)(-3-i)}{(-3+i)(-3-i)}$ ومنه $\frac{c-d}{c-b}=\frac{-3-i-9i+3}{9+1}=\frac{-10i}{10}=-i$	0.5

$0.25+0.25$	• **استنتاج طبيعة المثلث** BCD : - لدينا : $\left\|\frac{c-d}{c-b}\right\|=\|-i\|=1$ ولدينا $\arg\left(\frac{c-d}{c-b}\right)=\arg(-i)=-\frac{\pi}{2}$ - يعني $\frac{DC}{BC}=1$ أي $DC=BC$ و $\left(\overrightarrow{BC},\overrightarrow{DC}\right)=-\frac{\pi}{2}$ أي $\overrightarrow{BC}\perp\overrightarrow{DC}$ **إذن المثلث** BCD **قائم في** C **ومتساوي الساقين**
	د) بين أنَ النقط C,B,A **و** D **تنتمي الى نفس الدائرة يطلب تعيين مركزها نصف قطرها**
0.5 0.5	• **تبيان أنَ النقط** C,B,A **و** D **تنتمي الى نفس الدائرة :** 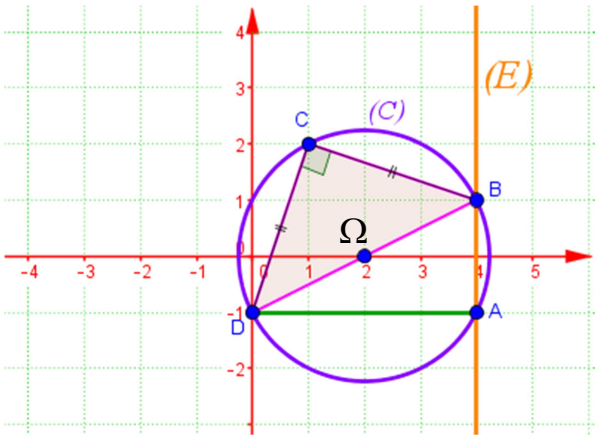 المثلث BCD قائم في C وبالتالي النقط D,C,B تنتمي الى دائرة مركزها منتصف الوتر أي Ω. ولدينا : $\Omega A=\|z_A-z_\Omega\|=\|4-i-2\|=\|2-i\|$ $\Omega A=\sqrt{5}$ إذن : $\Omega A=\Omega B=\Omega C=\Omega D=\sqrt{5}$ ومنه النقط C,B,A و D تنتمي الى نفس الدائرة **مركزها** $\Omega(2;0)$ ونصف قطرها $R=\sqrt{5}$.
	ه) عين (E) **مجموعة النقط** M **من المستوي ذات اللاحقة** z **بحيث يكون ،** $\|-i-z\|^2-\|4-i-z\|^2=16$.
01	• **تعيين مجموعة النقط** (E) **من المستوي والتي تحقق :** $\|-i-z\|^2-\|4-i-z\|^2=16$: $\|-i-z\|^2-\|4-i-z\|^2=16$ **يعني** $MD^2-MA^2=16$ ولتكن النقطة I منتصف القطعة $[DA]$ إذن لدينا : $\left(\overrightarrow{MI}+\overrightarrow{ID}\right)^2-\left(\overrightarrow{MI}+\overrightarrow{IA}\right)^2=16$ أي $\overrightarrow{MI}^2+2\overrightarrow{MI}.\overrightarrow{ID}+\overrightarrow{ID}^2-\overrightarrow{MI}^2-2\overrightarrow{MI}.\overrightarrow{IA}-\overrightarrow{IA}^2=16$ ومنه $2\overrightarrow{MI}.\overrightarrow{ID}-2\overrightarrow{MI}.\overrightarrow{IA}=16$ لان $\overrightarrow{ID}^2=\overrightarrow{IA}^2$ (I منتصف القطعة $[DA]$) وبالتالي : $2\overrightarrow{MI}.\left(\overrightarrow{ID}-\overrightarrow{IA}\right)=16$ أي $2\overrightarrow{MI}.\overrightarrow{AD}=16$ إذن : $\overrightarrow{IM}.\overrightarrow{DA}=8$ لتكن H المسقط العمودي للنقطة M على (DA) حيث $\overrightarrow{IH}.\overrightarrow{DA}=8$ أي $IH\times DA=8$ - ولدينا : $DA=\|z_A-z_D\|=\|4-i+i\|=\|4\|=4$ وبالتالي $IH=2$ - **وبالتالي** H **منطبقة على النقطة** A. إذن $\overrightarrow{IM}.\overrightarrow{DA}=8$ يعني $\left(\overrightarrow{IH}+\overrightarrow{HM}\right).\overrightarrow{DA}=8$ ومنه $\overrightarrow{IH}.\overrightarrow{DA}+\overrightarrow{HM}.\overrightarrow{DA}=8$ أي $8+\overrightarrow{HM}.\overrightarrow{DA}=8$ وبالتالي $\overrightarrow{AM}.\overrightarrow{DA}=0$ (لان $H=A$) **المجموعة** (E) **هي المستقيم العمودي على** (DA) **و المار من** A أي

	$(E)=(AB)$ ☜ أوبطريقة أخرى : $\lvert -i-z\rvert^2-\lvert 4-i-z\rvert^2=16$ يعني $\lvert -i-x-iy\rvert^2-\lvert 4-i-x-iy\rvert^2=16$ ومنه : $\lvert -x+i(-1-y)\rvert^2-\lvert 4-x+(-1-y)\rvert^2=16$ أي $(-x)^2+(-1-y)^2-(4-x)^2-(-1-y)^2=16$ ومنه $x^2-16+8x-x^2=16$ ومنه : $8x=32$ وبالتالي : $x=4$ المجموعة (E) هي المستقيم ذي المعادلة $x=4$ العمودي على $(x'x)$ والمار من النقطة A
	☜ **التمرين الثاني :**
	في الفضاء المنسوب الى المعلم المتعامد و المتجانس $(O,\vec{i},\vec{j},\vec{k})$ نعتبر النقطتين $I(3,-1,0),A(2,1,1)$ و (P) مجموعة النقط $M(x,y,z)$ من الفضاء التي تحقق، $MA^2-\overrightarrow{MA}.\overrightarrow{MI}=0$
	1) أ) بين أن النقطة A تنتمي الى المجموعة (P) .
0.5	• تبيان أن النقطة A تنتمي الى المجموعة (P) : - لدينا : $AA^2-\overrightarrow{AA}.\overrightarrow{AI}=0$ ومنه $A\in(P)$
	ب) بين أن المجموعة (P) هي مستو $x-2y-z+1=0$ معادلة ديكارتية له.
0.5	• تبيان أن المجموعة (P) هي مستو $x-2y-z+1=0$ معادلة ديكارتية له: - لدينا : $MA^2-\overrightarrow{MA}.\overrightarrow{MI}=0$ يعني $\overrightarrow{MA}^2-\overrightarrow{MA}.\overrightarrow{MI}=0$ ومنه $\overrightarrow{MA}.(\overrightarrow{MA}-\overrightarrow{MI})=0$ أي $\overrightarrow{MA}.(\overrightarrow{MA}+\overrightarrow{IM})=0$ وبالتالي $\overrightarrow{MA}.\overrightarrow{IA}=0$ أي $\overrightarrow{AM}.\overrightarrow{AI}=0$ المجموعة (P) هي مستو $\overrightarrow{IA}$ شعاع ناظمي له و يمر من النقطة A - تعيين معادلة ديكارتية للمستوي (P): لدينا : $\overrightarrow{AI}(1;-2;-1)$ معادلة (P) من الشكل $x-2y-z+d=0$ - تعيين قيمة d : نعوض بإحداثيات النقطة A نجد : $2-2(1)-1+d=0$ ومنه $d=1$ أي معادلة (P) هي $x-2y-z+1=0$

www.dzexams.com

2) لتكن (S) سطح كرة مركزها النقطة I وتمر من النقطة A. ▪ تحقق أن نصف قطر سطح الكرة (S) هو $R=\sqrt{6}$ ثم عين معادلة ديكارتية لسطح الكرة (S)	
• التحقق أن نصف قطر (S) هو $R=\sqrt{6}$: - لدينا : $R=AI=\sqrt{(1)^2+(-2)^2+(-1)^2}=\sqrt{6}$. - تعيين معادلة ديكارتية لسطح الكرة (S): $(x-3)^2+(y+1)^2+z^2=6$	0.5 0.5
3) ليكن (P') المستوي ذي المعادلة $2x-y+z-4=0$. أ) بين أن (P') يقطع (S) وفق دائرة (C) يطلب تعيين مركزها H ونصف قطرها r.	
• تبيان أن (P') قطع (S) وفق دائرة (C): - لدينا : $d(I,(P'))=\frac{\lvert 2(3)-(-1)+0-4\rvert}{\sqrt{(2)^2+(-1)^2+(1)^2}}=\frac{\lvert 3\rvert}{\sqrt{6}}=\frac{3\sqrt{6}}{6}=\frac{\sqrt{6}}{2}$ أي لدينا : $d(I,(P'))<R$ ومنه (P') قطع (S) وفق دائرة (C)	0.25
• تعيين مركز الدائرة (C) ونصف قطرها : - تمثيل وسيطي للمستقيم (Δ) المار من I مركز سطح الكرة (S) و العمودي على (P'): $(\Delta):\begin{cases}x=2t+3\\y=-t-1;(t\in\mathbb{R})\\z=t\end{cases}$ - تعيين H نقطة تقاطع المستقيم (Δ) مع المستوي (P'): نحل لجملة : $\begin{cases}x=2t+3\\y=-t-1\\z=t\\2x-y+z-4=0\end{cases}$ إذن : $2(2t+3)-(-t-1)+t-4=0$ ومنه $6t+3=0$	0.75

وبالتالي $t=-\frac{1}{2}$ و بالتالي $\begin{cases} x=2 \\ y=-\frac{1}{2} \\ z=-\frac{1}{2} \end{cases}$ أي $H\left(2;-\frac{1}{2};-\frac{1}{2}\right)$

حساب نصف قطر دائرة التقاطع (C): $r=\sqrt{R^2-d^2(I,(P'))}=\sqrt{6-\frac{6}{4}}$ $\quad r=\frac{3\sqrt{2}}{2}$

ب) لتكن $B(2;-2;-2)$ نقطة من الفضاء تحقق من أن القطعة $[AB]$ أحد أقطار الدائرة (C)

- **التحقق من أن القطعة $[AB]$ أحد أقطار الدائرة (C):**

0.5

- **لدينا :** $AB=\sqrt{(2-2)^2+(-2-1)^2+(-2-1)^2}=\sqrt{18}=3\sqrt{2}=2r$

وبالتالي $[AB]$ أحد أقطار الدائرة (C)

ج) أكتب معادلة ديكارتية للمستوي (Q) المماس لسطح الكرة (S) في النقطة B .

- **كتابة معادلة ديكارتية للمستوي (Q):**

0.5

- $\overrightarrow{IB}(-1;-1;-2)$ شعاع ناظمي للمستوي (Q).
- معادلة (Q) من الشكل $-x-y-2z+d=0$
- لتعيين قيمة d نعوض بإحداثيات النقطة B نجد : $-(2)-(-2)-2(-2)+d=0$

أي $d=-4$

إذن : $(Q):-x-y-2z-4=0$

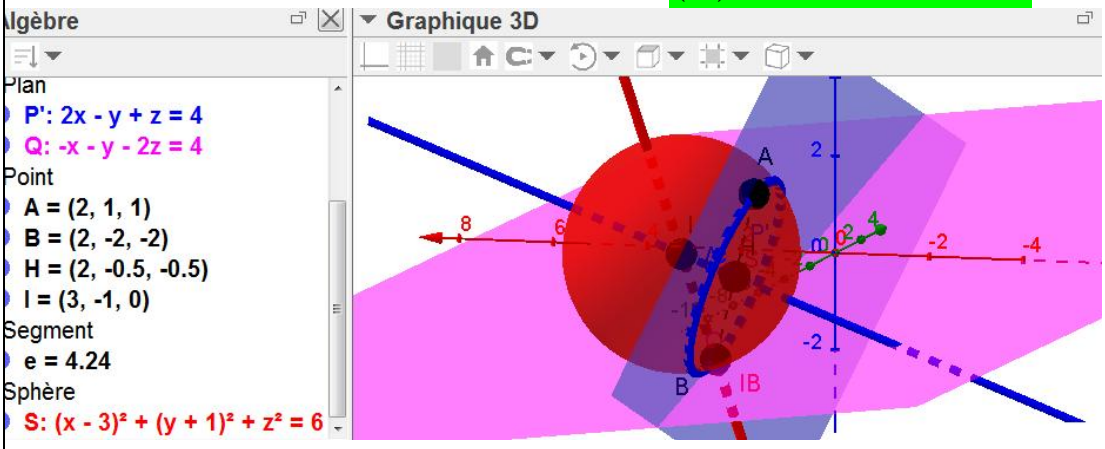

التمرين الثالث :

1) **أدرس حسب قيم العدد الطبيعي n ، بواقي القسمة الاقليدية للعدد 5^n على العدد 7 .**

- **دراسة بواقي القسمة الاقليدية للعدد 5^n على العدد 7 :**

0.75

- لدينا :

$5^0\equiv 1[7]$ $\quad 5^1\equiv 5[7]$ $\quad 5^2\equiv 4[7]$ $\quad 5^3\equiv 6[7]$ $\quad 5^4\equiv 2[7]$ $\quad 5^5\equiv 3[7]$

$5^6\equiv 1[7]$

- بواقي القسمة الاقليدية للعدد 5^n على العدد 7 تشكل متتالية دورية دورها $p=6$
- من أجل كل عدد طبيعي k لدينا :

n	$6k$	$6k+1$	$6k+2$	$6k+3$	$6k+4$	$6k+5$
$5^n \equiv ...[7]$	1	5	4	6	2	3

0.75

2) **عين قيم العدد الطبيعي n بحيث يكون العدد $19^{6n+3}-5^{6n+4}+4n^2+1$ قابلا للقسمة على العدد 7**

- **تعيين قيم العدد الطبيعي n بحيث يكون : $19^{6n+3}-5^{6n+4}+4n^2+1\equiv 0[7]$:**
- لدينا : $19\equiv 5[7]$ ومنه $19^{6n+3}\equiv 5^{6n+3}[7]$ أي $19^{6n+3}\equiv 6[7]$
- ولدينا : $5^{6n+4}\equiv 2[7]$
- إذن : $19^{6n+3}-5^{6n+4}+4n^2+1\equiv 0[7]$ يكافئ $6-2+4n^2+1\equiv 0[7]$

أي $4n^2+5\equiv 0[7]$

ومنه : $4n^2\equiv -5[7]$ إذن $4n^2\equiv 2[7]$

وبالتالي : $n^2\equiv 4[7]$

$n\equiv ...[7]$	0	1	2	3	4	5	6
$n^2\equiv ...[7]$	0	1	4	2	1	4	1

- ومنه : $n^2\equiv 4[7]$ يعني $n\equiv 2[7]$ أو $n\equiv 5[7]$

أي $n=7\alpha+2$ أو $n=7\alpha+5$ مع $\alpha\in\mathbb{N}$

01

3) N **عدد طبيعي يكتب $\overline{1xx0}$ في نظام التعداد ذي الأساس 5. حيث x عدد طبيعي .**

أ) **عين قيم العدد الطبيعي x حتى يكون العدد N قابلا للقسمة على 35.**

- **تعيين قيم العدد الطبيعي x حتى يكون العدد N قابلا للقسمة على 35:**
- لدينا : $N=1\times 5^3+x\times 5^2+x\times 5^1+0\times 5^0=125+30x$ مع $x<5$

وبالتالي N يقبل القسمة على 35 يعني $N\equiv 0[35]$

أي أن $N\equiv 0[7]$ لان $N\equiv 0[5]$ و 5 أولي مع 7

وبالتالي $N\equiv 0[7]$ يعني $125+30x\equiv 0[7]$

ومنه : $6+2x\equiv 0[7]$

يعني $2x\equiv -6[7]$ أي $2x\equiv 1[7]$

وبالتالي : $x\equiv 4[7]$

أي $x=7k+4$ مع $x<5$ **إذن من أجل $k=0$ نجد $x=4$**

01

ب) أكتب العدد N في النظام العشري .

- **كتابة العدد N في النظام العشري:**

$N=125+30(4)=245$ $N=245$

0.5

التمرين الرابع :

نعتبر الدالة العددية f المعرفة على المجال $]0;+\infty[$ بـ : $f(x)=x+3\ln\left(\frac{x^2+2}{3x}\right)$

نسمي (C_f) المنحني الممثل لها في المستوي المنسوب إلى المعلم المتعامد و المتجانس $(O,\vec{i},\vec{j})$.

	I. 1) أحسب نهايتي الدالة f عند 0 وعند $+\infty$.
$0.25+0.25$	• حساب نهايتي الدالة f : - $\lim\limits_{x\to 0^+} f(x)=\lim\limits_{x\to 0^+}\left(x+3\ln\left(\frac{x^2+2}{3x}\right)\right)=+\infty$ لان $\begin{cases}\lim\limits_{x\to 0^+}\left(\frac{x^2+2}{3x}\right)=+\infty\\ \lim\limits_{x\to 0^+}\ln\left(\frac{x^2+2}{3x}\right)=+\infty\end{cases}$ - $\lim\limits_{x\to +\infty} f(x)=\lim\limits_{x\to +\infty}\left(x+3\ln\left(\frac{x^2+2}{3x}\right)\right)=+\infty$ لان $\begin{cases}\lim\limits_{x\to +\infty}\left(\frac{x^2+2}{3x}\right)=+\infty\\ \lim\limits_{x\to +\infty}\ln\left(\frac{x^2+2}{3x}\right)=+\infty\end{cases}$
	2) بين أنه من أجل كل عدد حقيقي موجب تماما x ، $f'(x)=\frac{(x-1)(x^2+4x+6)}{x(x^2+2)}$ ثم استنتج اتجاه تغير الدالة f
0.75	• **حساب** $f'(x)$: $f'(x)=1+3\times\frac{\frac{2x(3x)-3(x^2+2)}{(3x)^2}}{\frac{x^2+2}{3x}}=1+3\times\frac{6x^2-3x^2-6}{9x^2}\times\frac{3x}{x^2+2}$ أي $f'(x)=1+\frac{6x^2-3x^2-6}{9x^2}\times\frac{9x}{x^2+2}=1+\frac{3x^2-6}{x(x^2+2)}=\frac{x^3+3x^2+2x-6}{x(x^2+2)}$ وبالتالي : $f'(x)=\frac{(x-1)(x^2+4x+6)}{x(x^2+2)}$ من أجل كل عدد حقيقي موجب تماما x
0.5	• **استنتاج اتجاه تغير الدالة f :** $f'(x)=0$ يعني $\frac{(x-1)(x^2+4x+6)}{x(x^2+2)}=0$ ومنه $x-1=0$ أو $x^2+4x+6=0$ (ليس لها حل لان $\Delta=16-24=-8<0$) مع $x\in]0;+\infty[$ ومنه $x=1$ إشارة $f'(x)$ من إشارة $(x-1)(x^2+4x+6)$ لان $x(x^2+2)>0$

x	0		1		$+\infty$
$x-1$		$-$	0	$+$	
x^2+4x+6		$+$		$+$	
$f'(x)$	$\Vert$	$-$	0	$+$	

- الدالة f متناقصة على المجال $]0;1]$ و متزايدة على المجال $[1;+\infty[$.

3) شكل جدول تغيرات الدالة f.

0.5

- جدول تغيرات الدالة f:

x	0		1		$+\infty$
$f'(x)$	$\Vert$	$-$	0	$+$	
$f(x)$	$\Vert$ $+\infty$	$\searrow$	1	$\nearrow$	$+\infty$

4) أدرس الوضع النسبي للمنحني (C_f) بالنسبة الى المستقيم (Δ) ذي المعادلة $y=x$.

01

- دراسة الوضع النسبي للمنحني (C_f) بالنسبة للمستقيم (Δ) ذي المعادلة $y=x$:

- ندرس إشارة الفرق $f(x)-y$

- لدينا : $f(x)-y=x+3\ln\left(\frac{x^2+2}{3x}\right)-x=3\ln\left(\frac{x^2+2}{3x}\right)$

- $f(x)-y=0$ يعني $3\ln\left(\frac{x^2+2}{3x}\right)=0$

ومنه $\ln\left(\frac{x^2+2}{3x}\right)=0$ أي $\frac{x^2+2}{3x}=1$

- وبالتالي $x^2+2=3x$

إذن : $x^2-3x+2=0$

- حساب المميز : $\Delta=(-3)^2-4(1)(2)=9-8=1$

المعادلة تقبل حلين متمايزين هما : $x_1=\frac{3-1}{2}=1$ ، $x_1=\frac{3+1}{2}=2$

x	0		1		2		$+\infty$
$f(x)-y$	$\Vert$	$+$	0	$-$	0	$+$	
		(C_f) يقع فوق (Δ)	(C_f) يقطع (Δ)	(C_f) يقع تحت (Δ)	(C_f) يقطع (Δ)	(C_f) يقع فوق (Δ)	

5) أحسب $f(4)$ ثم أرسم (Δ) و (C_f).

- حساب $f(4)$:

0.25 01	- $f(4)=4+3\ln\left(\frac{16+2}{3\times 4}\right)=4+3\ln\frac{18}{12}=5.22$ • الرسم : 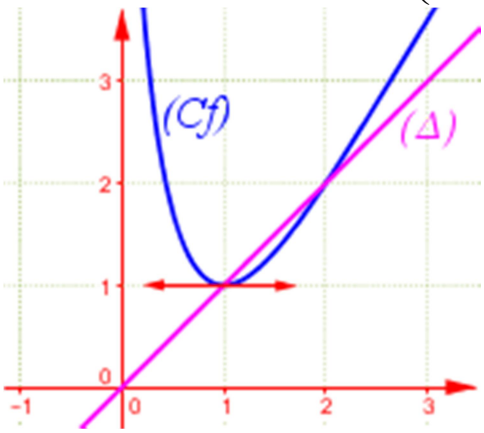
	II. نعتبر المتتالية العددية $(u_n)_{n\in\mathbb{N}}$ المعرفة بـ : $u_0=\frac{3}{2}$ و من أجل كل عدد طبيعي n، **$u_{n+1}=f(u_n)$.** **1) برهن أنه من أجل كل عدد طبيعي n، $1<u_n<2$.**
0.75	• **البرهان بالتراجع على أنه من أجل كل عدد طبيعي n، $1<u_n<2$:** - نسمي $P(n)$ هذه الخاصية . -1 من أجل $n=0$ لدينا : $u_0=\frac{3}{2}$ إذن $1<u_0<2$ ومنه $P(0)$ صحيحة . -2 نفرض صحة $P(n)$ أي نفرض أن $1<u_n<2$. ونبرهن على صحة $P(n+1)$ أي نبرهن أن $1<u_{n+1}<2$ لدينا : $1<u_n<2$ ومنه $f(1)<f(u_n)<f(2)$ لان الدالة f متزايدة تماما على المجال $]1;2[$ - ومنه $1<u_{n+1}<2$ لان $u_{n+1}=f(u_n)$ ، $f(1)=1$ و $f(2)=2$ أي $P(n+1)$ صحيحة . - حسب مبدأ الاستدلال بالتراجع فإن $P(n)$ صحيحة من أجل كل عدد طبيعي n. **من أجل كل عدد طبيعي n، $1<u_n<2$.**
	2) أدرس رتابة المتتالية $(u_n)_{n\in\mathbb{N}}$ ثم استنتج أنها متقاربة .
0.5	• **دراسة رتابة المتتالية $(u_n)_{n\in\mathbb{N}}$ أي دراسة تغيرات المتتالية $(u_n)_{n\in\mathbb{N}}$:** - **ندرس إشارة الفرق $u_{n+1}-u_n$** لدينا : $u_{n+1}-u_n=u_n+3\ln\left(\frac{u_n^2+2}{3u_n}\right)-u_n=3\ln\left(\frac{u_n^2+2}{3u_n}\right)$ - بما أن $u_n\in]1;2[$ فإن $3\ln\left(\frac{u_n^2+2}{3u_n}\right)<0$ من أجل $x\in]1;2[$ فإن $f(x)-x<0$ **(السؤال (4))**

وبالتالي $u_{n+1}-u_n<0$ ومنه المتتالية $(u_n)_{n\in\mathbb{N}}$ متناقصة تماما .	
• استنتاج أن المتتالية $(u_n)_{n\in\mathbb{N}}$ متقاربة : - المتتالية $(u_n)_{n\in\mathbb{N}}$ محدودة من الأسفل بالعدد 1 و هي متناقصة تماما فهي متقاربة وتتقارب من العدد 1 .	0.5
3) عين نهاية المتتالية $(u_n)_{n\in\mathbb{N}}$.	
• تعيين نهاية المتتالية $(u_n)_{n\in\mathbb{N}}$: $\lim\limits_{n\to+\infty} u_n=1$	0.25

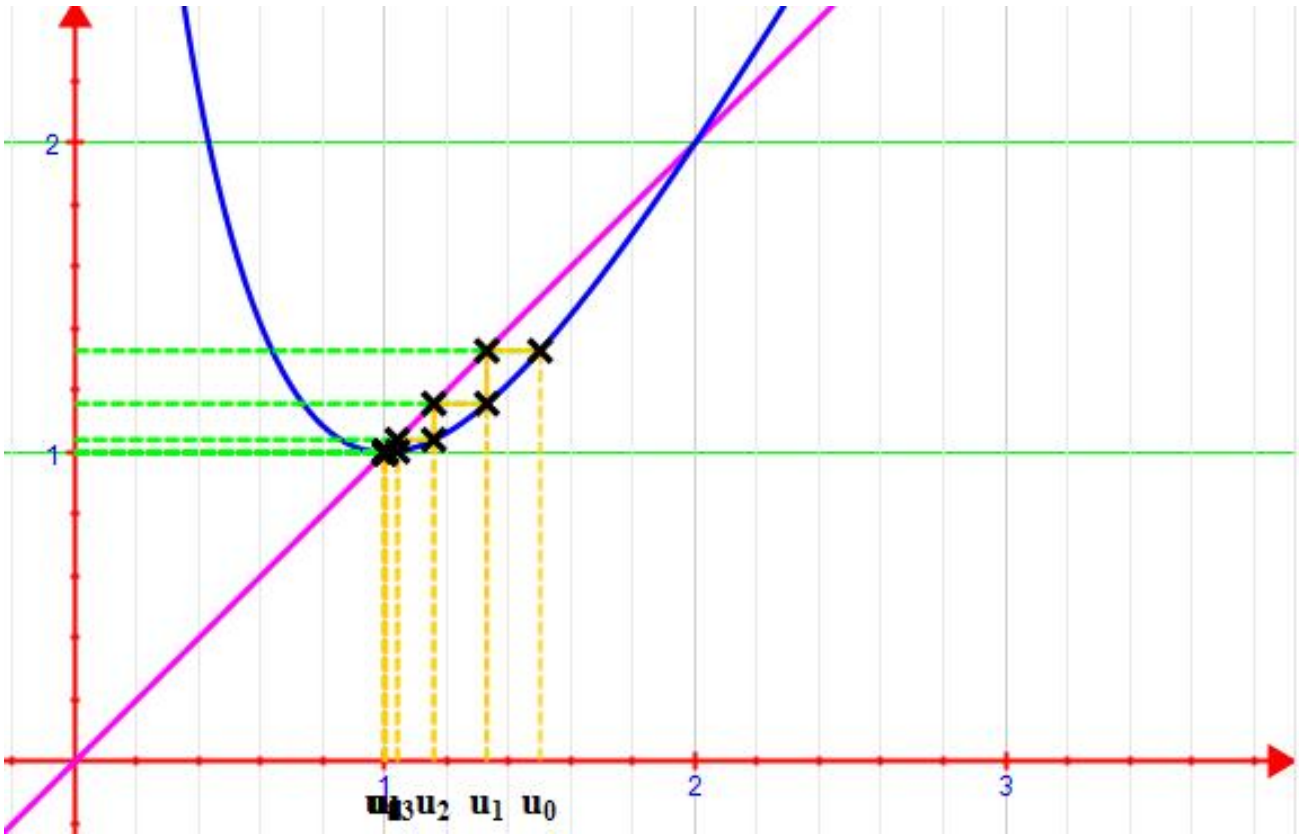

www.dzexams.com

☜ تصحيح الموضوع التجريبي الثاني الشعبة : رياضيات

التصحيح	العلامة
☜ التمرين الأول ☺☺☺	05 نقاط
1) حل في مجموعة الأعداد المركبة $\mathbb{C}$ المعادلة ذات المجهول المركب z التالية : $\left(z^2+2z+4\right)\left(z^2-2\sqrt{3}z+4\right)=0$.	
▪ حل المعادلة $\left(z^2+2z+4\right)\left(z^2-2\sqrt{3}z+4\right)=0$: $\left(z^2+2z+4\right)\left(z^2-2\sqrt{3}z+4\right)=0$ يكافئ $z^2-2\sqrt{3}z+4=0$ أو $z^2+2z+4=0$ ▪ حل المعادلة : $z^2-2\sqrt{3}z+4=0$ حساب المميز : $\Delta=\left(-2\sqrt{3}\right)^2-4(1)(4)=12-16=-4=(2i)^2$ المعادلة تقبل حلين هما : $z_2=\overline{z_1}=\sqrt{3}+\mathrm{i}, z_1=\dfrac{2\sqrt{3}-2i}{2}=\sqrt{3}-i$	0.5
▪ حل المعادلة $z^2+2z+4=0$ حساب المميز : $\Delta=(2)^2-4(1)(4)=4-16=-12=\left(2\sqrt{3}i\right)^2$ المعادلة تقبل حلين هما : $z''=\overline{z'}=-1+i\sqrt{3}, z'=\dfrac{-2-2i\sqrt{3}}{2}=-1-i\sqrt{3}$	0.5
▪ مجموعة حلول المعادلة $\left(z^2+2z+4\right)\left(z^2-2\sqrt{3}z+4\right)=0$: $S=\left\{\sqrt{3}-i;\sqrt{3}+i;-1-i\sqrt{3};-1+i\sqrt{3}\right\}$	
2) في المستوي المركب المنسوب إلى المعلم المتعامد و المتجانس المباشر $\left(O,\vec{u},\vec{v}\right)$ نعتبر النقط A,B,C و D التي لواحقها على الترتيب $z_A=\sqrt{3}+i, z_B=\overline{z_A}, z_C=-1-\mathrm{i}\sqrt{3}$ و $z_D=\overline{z_C}$. أ) أكتب الأعداد المركبة z_A,z_B,z_C و z_D على الشكل الأسي	
▪ كتابة الأعداد z_A,z_B,z_C و z_D على الشكل الأسي: ▪ لدينا : $z_A=\sqrt{3}+i$ ▪ حساب الطويلة : $\lvert z_A\rvert=\lvert\sqrt{3}+i\rvert=\sqrt{\left(\sqrt{3}\right)^2+1^2}=2$ ▪ تعيين عمدة للعدد z_A : نضع $\theta=\arg\left(z_A\right)$ لدينا : $\begin{cases}\cos\theta=\dfrac{\sqrt{3}}{2}\\ \sin\theta=\dfrac{1}{2}\end{cases}$ ومنه $\theta\equiv\dfrac{\pi}{6}[2\pi]$ أي $z_A=2e^{i\frac{\pi}{6}}$	0.5
▪ ولدينا : $z_B=\overline{z_A}=2e^{-i\frac{\pi}{6}}$	
▪ $z_C=-1-i\sqrt{3}$ حساب الطويلة : $\lvert z_C\rvert=\lvert-1-i\sqrt{3}\rvert=\sqrt{(-1)^2+\left(-\sqrt{3}\right)^2}=2$	

0.5	تعيين عمدة للعدد z_C : نضع : $\theta' = \arg(z_C)$ لدينا : $\begin{cases} \cos\theta' = -\frac{1}{2} \\ \sin\theta' = -\frac{\sqrt{3}}{2} \end{cases}$ ومنه $\theta \equiv \frac{4\pi}{3}[2\pi]$ إذن $z_C = 2e^{i\frac{4\pi}{3}}$
	▪ ولدينا : $z_D = \overline{z_C} = 2e^{-i\frac{4\pi}{3}}$
	ب) بين أن النقط A, B, C و D تنتمي الى نفس الدائرة (C) يطلب تعيين عناصرها .
0.25	▪ **تبيان أن النقط A, B, C و D تنتمي الى نفس الدائرة (C) :** ▪ لدينا : $\lvert z_A\rvert = \lvert z_B\rvert = \lvert z_C\rvert = \lvert z_D\rvert = 2$ أي $OA = OB = OC = OD = 2$ **ومنه النقط A, B, C و D تنتمي الى نفس الدائرة (C) ذات المركز O و نصف قطرها $r = 2$**
	ج) بين أنَ : $\frac{z_D - z_B}{z_A - z_C} = i$ ثم عين قيسا للزاوية الموجهة $(\overrightarrow{CA}, \overrightarrow{BD})$.
0.5	▪ **تبيان أن $\frac{z_D - z_B}{z_A - z_C} = i$ ثم تعيين قيسا للزاوية الموجهة $(\overrightarrow{CA}, \overrightarrow{BD})$:** ▪ **لدينا:** $\frac{z_D - z_B}{z_A - z_C} = \frac{-1 + i\sqrt{3} - \sqrt{3} + i}{\sqrt{3} + i + 1 + i\sqrt{3}} = \frac{-1 - \sqrt{3} + i(1+\sqrt{3})}{1 + \sqrt{3} + i(1+\sqrt{3})} = \frac{i^2(1+\sqrt{3}) + i(1+\sqrt{3})}{1 + \sqrt{3} + i(1+\sqrt{3})}$ أي $\frac{z_D - z_B}{z_A - z_C} = \frac{i\left(i(1+\sqrt{3}) + (1+\sqrt{3})\right)}{1 + \sqrt{3} + i(1+\sqrt{3})} = i \times \frac{1 + \sqrt{3} + i(1+\sqrt{3})}{1 + \sqrt{3} + i(1+\sqrt{3})} = i$ **إذن $\frac{z_D - z_B}{z_A - z_C} = i$** ▪ **تعيين قيسا للزاوية الموجهة $(\overrightarrow{CA}, \overrightarrow{BD})$:** $(\overrightarrow{CA}, \overrightarrow{BD}) = \arg(i) = \frac{\pi}{2}$
	▪ **ماذا تستنتج بالنسبة للمستقيمين (AC) و (BD)؟**
0.25	▪ **الاستنتاج بالنسبة للمستقيمين (AC) و (BD):** $(\overrightarrow{CA}, \overrightarrow{BD}) = \frac{\pi}{2}$ يعني $(AC) \perp (BD)$
	3) نعتبر العدد المركب z_n الذي طويلته $\frac{1}{2^n}$ و $\frac{2n\pi}{3}$ عمدة له ، حيث n عدد طبيعي . **ونعرف العدد المركب L_n بـ : $L_n = z_D \times z_n$.** **أ) أكتب كلا من العددين L_0, L_1 على الشكل الجبري .**
	▪ **كتابة كلا من العددين L_0, L_1 على الشكل الجبري :** لدينا : $L_0 = z_D \times z_0 = 2e^{-i\frac{4\pi}{3}} \times \frac{1}{2^0} \times e^{i\frac{2\times 0\times\pi}{3}} = 2e^{-i\frac{4\pi}{3}} = -1 + i\sqrt{3}$

$L_1 = z_D \times z_1 = 2e^{-i\frac{4\pi}{3}} \times \frac{1}{2^1} \times e^{i\frac{2\pi}{3}} = 2 \times \frac{1}{2} \times e^{-i\frac{4\pi}{3}+i\frac{2\pi}{3}} = e^{-i\frac{2\pi}{3}} = -\frac{1}{2} - i\frac{\sqrt{3}}{2}$ إذن $L_0 = -1 + i\sqrt{3}$ $\quad$ $L_1 = -\frac{1}{2} - i\frac{\sqrt{3}}{2}$	0.5
ب) لتكن (u_n) المتتالية العددية المعرفة بـ: $u_n = \lvert L_n \rvert$ من أجل كل عدد طبيعي n. ▪ **بين أن المتتالية (u_n) هندسية يطلب تعيين أساسها و حدها الأول .** ▪ **لتكن النقط $M_0, M_1, \dots, M_n$ صور الأعداد المركبة $L_0, L_1, \dots, L_n$ على الترتيب .** **أحسب بدلالة n المجموع ، $S_n = \lVert\overrightarrow{OM_0}\rVert + \lVert\overrightarrow{OM_1}\rVert + \dots + \lVert\overrightarrow{OM_n}\rVert$ ثم أحسب $\lim\limits_{n\to+\infty} S_n$**	
▪ **تبيان أن المتتالية (u_n) هندسية :** ▪ لدينا : $u_n = \lvert L_n \rvert = \lvert z_D \times z_n \rvert = \lvert z_D \rvert \times \lvert z_n \rvert = 2 \times \frac{1}{2^n}$ ▪ إذن : $u_{n+1} = 2 \times \frac{1}{2^{n+1}} = 2 \times \frac{1}{2} \times \frac{1}{2^n} = \frac{1}{2}\left(2 \times \frac{1}{2^n}\right) = \frac{1}{2}u_n$ ▪ أي $u_{n+1} = \frac{1}{2}u_n$ **ومنه (u_n) هندسية أساسها $q = \frac{1}{2}$ وحدها الأول $u_0 = \lvert L_0 \rvert = \lvert -1 + i\sqrt{3} \rvert = 2$** 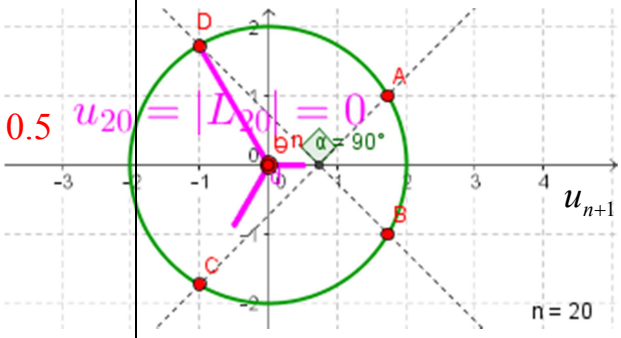	0.5
▪ **حساب المجموع $S_n = \lVert\overrightarrow{OM_0}\rVert + \lVert\overrightarrow{OM_1}\rVert + \dots + \lVert\overrightarrow{OM_n}\rVert$:** ▪ **لدينا :** $S_n = \lVert\overrightarrow{OM_0}\rVert + \lVert\overrightarrow{OM_1}\rVert + \dots + \lVert\overrightarrow{OM_n}\rVert = u_0 + u_1 + \dots + u_n = u_0 \times \left(\frac{1-q^{n+1}}{1-q}\right)$ $S_n = 2 \times \left(\frac{1-\left(\frac{1}{2}\right)^{n+1}}{1-\frac{1}{2}}\right) = 4 \times \left(1 - \left(\frac{1}{2}\right)^{n+1}\right) = 4 - 2\left(\frac{1}{2}\right)^n$ $S_n = 4 - 2\left(\frac{1}{2}\right)^n$ ▪ **حساب $\lim\limits_{n\to+\infty} S_n$:** $\lim\limits_{n\to+\infty} S_n = \lim\limits_{n\to+\infty}\left[4 - 2\left(\frac{1}{2}\right)^n\right] = 4$ $\quad$ لان $\lim\limits_{n\to+\infty}\left(\frac{1}{2}\right)^n = 0$	0.5 0.25
☜ **التمرين الثاني** ☺☺☺	**04 نقاط**
الفضاء منسوب إلى معلم متعامد ومتجانس $(O, \vec{i}, \vec{j}, \vec{k})$ نعتبر النقط $A(1;2;3), B(0;1;4), C(-1;-3;2)$ و $D(4;-2;5)$ **و الشعاع** $\vec{n} = 2\vec{i} + a\vec{j} + b\vec{k}$ **حيث a, b عددان حقيقيان .** **1. أ) بين أن النقط A, B, C تعين مستويا (ABC) .**	
▪ تبيان أن النقط A, B, C تعين مستويا : ▪ لدينا : $\overrightarrow{AB}(-1;-1;1)$ و $\overrightarrow{AC}(-2;-5;-1)$	$0.25 + 0.25$

لدينا : $\frac{-2}{-1} \neq \frac{-5}{-1} \neq \frac{-1}{1}$ إذن :لا يوجد عدد حقيقي k بحيث يكون ، $\overrightarrow{AC} = k\overrightarrow{AB}$ ومنه النقط C, B, A ليست في استقامية فهي تعين مستويا.	0.25
ب)عين العددين الحقيقيين b,a بحيث يكون الشعاع $\vec{n}$ ناظميا للمستوي (ABC) ثم عين معادلة ديكارتية للمستوي (ABC).	
▪ **تعيين العددين الحقيقيين b,a بحيث يكون الشعاع $\vec{n}$ ناظميا للمستوي (ABC):** ▪ لدينا : $\vec{n}(2;a;b)$ ناظميا للمستوي (ABC) يكافئ $\begin{cases}\vec{n} \perp \overrightarrow{AB} \\ \vec{n} \perp \overrightarrow{AC}\end{cases}$ يكافئ $\begin{cases}\vec{n}.\overrightarrow{AB} = 0 \\ \vec{n}.\overrightarrow{AC} = 0\end{cases}$ يكافئ $\begin{cases}2\times(-1) - a + b = 0 \\ 2(-2) - 5a - b = 0\end{cases}$ يكافئ $\begin{cases}-a + b - 2 = 0 \ldots (1) \\ -5a - b - 4 = 0 \ldots (2)\end{cases}$ ▪ بالجمع نجد : $-a + b - 2 - 5a - b - 4 = 0$ ومنه $-6a = 6$ أي $a = -1$ ▪ من أجل $a = -1$ بالتعويض في المعادلة (1) نجد : $b = 1$ أي $\vec{n}(2;-1;1)$ ناظمي للمستوي (ABC)	0.5
▪ **تعيين معادلة ديكارتية للمستوي (ABC):** ▪ معادلة (ABC) من الشكل $2x - y + z + d = 0$ ▪ تعيين قيمة d نعوض بإحداثيات النقطة $A(1;2;3)$ نجد : $2(1) - 2 + 3 + d = 0$ ومنه $d = -3$ معادلة للمستوي (ABC): $2x - y + z - 3 = 0$	0.5
2. ليكن المستقيم (Δ)ذي التمثيل الوسيطي: $\begin{cases}x = 2 - 2t \\ y = -1 + t; \quad (t \in \mathbb{R}) \\ z = 4 - t\end{cases}$ **أ) بين أن النقطة D تنتمي إلى المستقيم (Δ)وأن المستقيم (Δ)عمودي على المستوي (ABC).**	
▪ **تبيان أن النقطة D تنتمي إلى المستقيم (Δ):** ▪ **من أجل** $(x;y;z) = (4;-2;5)$ بالتعويض في الجملة السابقة نجد : $\begin{cases}4 = 2 - 2t \\ -2 = -1 + t \\ 5 = 4 - t\end{cases}$ **ومنه** $\begin{cases}2t = -2 \\ t = -1 \\ t = -1\end{cases}$ أي $\begin{cases}t = -1 \\ t = -1 \\ t = -1\end{cases}$ ومنه $D \in (\Delta)$	0.25

▪ **تبيان أن المستقيم (Δ) عمودي على المستوي (ABC):** ▪ لدينا : $\vec{n}(2;-1;1)$ شعاع ناظمي للمستوي (ABC) ▪ ولدينا : $\vec{u}(-2;1;-1)$ شعاع توجيه (Δ) ▪ نلاحظ أن : $\vec{n}=-\vec{u}$ ومنه $\vec{n}\parallel\vec{u}$ أي $(\Delta)\perp(ABC)$	0.25
ب) عين إحداثيات النقطة H المسقط العمودي للنقطة D على المستوي (ABC):	
▪ **تعيين إحداثيات النقطة H المسقط العمودي للنقطة D على المستوي (ABC):** ▪ إحداثيات النقطة H هي حل للجملة : $\begin{cases} x=2-2t \\ y=-1+t \\ z=4-t \\ 2x-y+z-3=0 \end{cases}$ ▪ أي $2(2-2t)-(-1+t)+(4-t)-3=0$ ومنه $-6t+6=0$ وبالتالي $t=1$ إذن: $H(0;0;3)$	0.5
ج) أحسب المسافة بين النقطة D والمستوي (ABC).	
▪ **حساب المسافة بين النقطة D والمستوي (ABC):** ▪ **لدينا :** $d(D,(ABC))=DH=\sqrt{(-4)^2+(2)^2+(3-5)^2}=\sqrt{24}=2\sqrt{6}$ ▪ **أو بطريقة أخرى :** $d(D,(ABC))=\dfrac{\lvert 2(4)-(-2)+5-3\rvert}{\sqrt{(2)^2+(-1)^2+(1)^2}}=\dfrac{\lvert 12\rvert}{\sqrt{6}}=\dfrac{12\sqrt{6}}{6}=2\sqrt{6}$ $d(D,(ABC))=2\sqrt{6}$	0.5
د) بين أن النقطة H هي مركز ثقل المثلث ABC.	
▪ **تبيان أن النقطة H هي مركز ثقل المثلث ABC:** ▪ **H هي مركز ثقل المثلث ABC يعني** $\overrightarrow{HA}+\overrightarrow{HB}+\overrightarrow{HC}=\vec{0}$ لدينا : $\overrightarrow{HA}\begin{pmatrix}1\\2\\0\end{pmatrix}+\overrightarrow{HB}\begin{pmatrix}0\\1\\1\end{pmatrix}+\overrightarrow{HC}\begin{pmatrix}-1\\-3\\-1\end{pmatrix}=\begin{pmatrix}0\\0\\0\end{pmatrix}$ أي $\overrightarrow{HA}+\overrightarrow{HB}+\overrightarrow{HC}=\vec{0}$ ومنه النقطة H هي مركز ثقل المثلث ABC	0.25
3) أدرس تقاطع المستقيم (Δ) مع المستوي $(O,\vec{i},\vec{j})$.	
▪ **دراسة تقاطع المستقيم (Δ) مع المستوي $(O,\vec{i},\vec{j})$:** ▪ لدينا معادلة للمستوي $(O,\vec{i},\vec{j})$ هي $z=0$ ومنه شعاع ناظمي له هو $\vec{k}(0;0;1)$ ▪ ولدينا شعاع توجيه للمستقيم (Δ) هو $\vec{u}(-2;1;-1)$. ▪ إذن : $\vec{k}.\vec{u}=0\times(-2)+0\times1+1\times(-1)=-1\neq0$ ومنه (Δ) لا يوازي $(O,\vec{i},\vec{j})$ ▪ أي (Δ) يقطع $(O,\vec{i},\vec{j})$ في نقطة F .	0.25

0.25	▪ إحداثيات النقطة F هي حل للجملة : $\begin{cases} x=2-2t \\ y=-1+t \\ z=4-t \\ z=0 \end{cases}$ أي $4-t=0$ ومنه $t=4$ ▪ من أجل $t=4$ بالتعويض في جملة التمثيل الوسيطي لـ (Δ) نجد : $\begin{cases} x=-6 \\ y=3 \\ z=0 \end{cases}$ ومنه $F(-6;3;0)$
	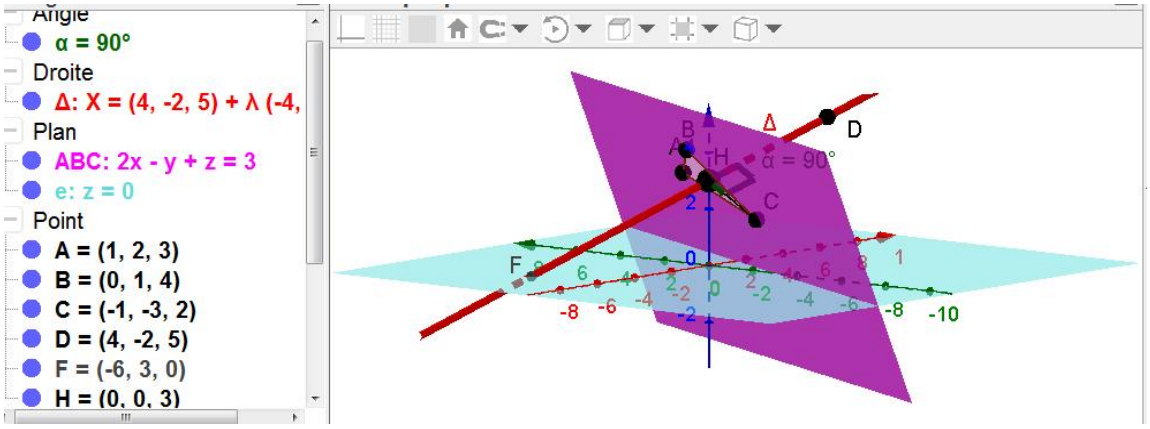
04نقاط	**☜ التمرين الثالث ☹☺☹**
	1) **أدرس حسب قيم العدد الطبيعي n بواقي القسمة الاقليدية للعدد 2^n على العدد 5.**
$0.5+0.5$	▪ **دراسة بواقي القسمة الاقليدية للعدد 2^n على العدد 5:** ▪ لدينا : $2^0\equiv 1[5]$ $2^1\equiv 2[5]$ $2^2\equiv 4[5]$ $2^3\equiv 3[5]$ $2^4\equiv 1[5]$ إذن بواقي القسمة الاقليدية للعدد 2^n على العدد 5 تشكل متتالية دورية دورها $p=4$. من أجل كل عدد طبيعي k لدينا :

n	$4k$	$4k+1$	$4k+2$	$4k+3$
باقي قسمة العدد 2^n على 5	1	2	4	3

	2) **عين باقي القسمة الاقليدية للعدد $\left(2017^{4n+3}-2\times 2016^{8n}+2014^{2n+1}\right)$ على العدد 5 حيث n عدد طبيعي.**
0.75	▪ **تعيين باقي القسمة الاقليدية للعدد $\left(2017^{4n+3}-2\times 2016^{8n}+2014^{2n+1}\right)$ على 5:** ▪ لدينا : $2017^{4n+3}\equiv 2^{4n+3}[5]$ أي $2017^{4n+3}\equiv 3[5]$ ▪ ولدينا : $2016^{8n}\equiv 1^{8n}[5]$ أي $2016^{8n}\equiv 1[5]$ ▪ و $2014^{2n+1}\equiv 4^{2n+1}[5]$ أي $2014^{2n+1}\equiv \left(2^2\right)^{2n+1}[5]$ ومنه $2014^{2n+1}\equiv 2^{4n+2}[5]$ وبالتالي $2014^{2n+1}\equiv 4[5]$ ▪ إذن $2017^{4n+3}-2\times 2016^{8n}+2014^{2n+1}\equiv 3-2\times 1+4[5]$ ومنه $2017^{4n+3}-2\times 2016^{8n}+2014^{2n+1}\equiv 0[5]$

www.dzexams.com

أي باقي القسمة الاقليدية للعدد $\left(2017^{4n+3}-2\times 2016^{8n}+2014^{2n+1}\right)$ على 5 هو 0	
3) بين أن العدد 131أولي .	
▪ **تبيان أن العدد 131أولي :** لدينا : $\sqrt{131}=11.45$ ▪ العدد 131 لا يقبل القسمة على أي عدد من الاعداد الأولية الأصغر من أوتساوي 11 وهي $\{2;3;5;7;11\}$ $131\equiv 10[11],131\equiv 5[7],131\equiv 1[5],131\equiv 2[3],131\equiv 1[2]$ ومنه العدد 131ولي .	0.5
4) عين الأعداد الطبيعة n التي تحقق : $\begin{cases}3m+7d=2^n-48\\ ab=5m\end{cases}$ حيث ، $d=PGCD(a,b)$ و $m=PPCM(a,b)$.	
▪ **تعيين الأعداد n التي تحقق :** $\begin{cases}3m+7d=2^n-48\\ ab=5m\end{cases}$ ▪ لدينا $ab=5m$ ولدينا $ab=md$ ومنه $d=5$ ▪ نضع : $a=5a'$ و $b=5b'$ مع $a'\wedge b'=1$ (a' أولي مع b') ▪ إذن $ab=5m$ يعني $5a'\times 5b'=5m$ أي $m=5a'b'$ وبالتالي : $3m+7d=2^n-48$ معناه $3\times 5a'b'+7\times 5=2^n-48$ أي $5(3a'b'+7)=2^n-48$ $3a'b'+7$ **طبيعي يعني** $2^n-48\equiv 0[5]$ **ومنه** $2^n-3\equiv 0[5]$ أي $2^n\equiv 3[5]$ وبالتالي : $n=4k+3$ مع $k\in\mathbb{N}$	0.75
5) عين قيم n بحيث يكون ، $7<n<15$ ثم استنتج الثنائيات $(a;b)$.	
▪ **تعيين قيم العدد الطبيعي n بحيث يكون ، $7<n<15$:** ▪ لدينا : $7<n<15$ معناه $7<4k+3<15$ أي $4<4k<12$ ▪ وبالتالي : $1<k<3$ إذن $k=2$ ومنه $n=11$	0.5
▪ **استنتاج الثنائيات $(a;b)$:** ▪ من أجل $n=11$ لدينا : $5(3a'b'+7)=2^{11}-48$ ومنه $5(3a'b'+7)=2000$ أي $3a'b'+7=400$ ومنه $a'b'=131$ وبالتالي مجموعة الثنائيات $(a';b')$ $\{(131;1),(1;131)\}$ ومنه مجموعة الثنائيات $(a;b)$ $\{(655;5),(5;655)\}$	0.5
التمرين الرابع☹☺☺	**(07 نقاط)**
نعتبر الدالة العددية f المعرفة على المجموعة $\mathbb{R}$ بـ : $f(x)=(1-2x)e^{2x}$ **نسمي (C_f) المنحني الممثل لها في المستوي المنسوب إلى المعلم المتعامد و المتجانس $(O,\vec{i},\vec{j})$.** (**وحدة الطول** $2cm$)	

I. 1) أحسب نهايتي الدالة f عند $-\infty$ وعند $+\infty$.

0.25 + 0.25

- **حساب النهايات عند $-\infty$ وعند $+\infty$:**
- $\lim\limits_{x\to-\infty} f(x) = \lim\limits_{x\to-\infty}(1-2x)e^{2x} = \lim\limits_{x\to-\infty}\left(e^{2x}-2xe^{2x}\right)=0$ لان

$\lim\limits_{x\to-\infty} e^{2x}=0,\ \lim\limits_{x\to-\infty} 2xe^{2x}=0$

- $\lim\limits_{x\to+\infty} f(x) = \lim\limits_{x\to+\infty}(1-2x)e^{2x} = -\infty$ لان $\lim\limits_{x\to+\infty} e^{2x}=+\infty,\ \lim\limits_{x\to+\infty}(1-2x)=-\infty$

2) أحسب عبارة $f'(x)$ من أجل كل عدد حقيقي x، ثم استنتج اتجاه تغير الدالة f.

0.25

- **حساب المشتقة :**
- $f'(x) = -2e^{2x}+(1-2x)\times 2e^{2x} = (-2+2-4x)e^{2x} = -4xe^{2x}$

$f'(x)=-4xe^{2x}$ من أجل كل عدد حقيقي x

0.25

- **استنتاج اتجاه تغير الدالة f :**
- **جدول اشارة المشتقة :**

شارة $f'(x)$ من اشارة $-x$

x	$-\infty$		0		$+\infty$
$-x$		$+$	0	$-$	
$f'(x)$		$+$	0	$-$	

- الدالة f **متزايدة على المجال** $]-\infty;0]$ ومتناقصة على المجال $[0;+\infty[$.

3) شكل جدول تغيرات الدالة f.

0.5

- **جدول تغيرات الدالة f :**

x	$-\infty$		0		$+\infty$
$f'(x)$		$+$	0	$-$	
$f(x)$	0	$\nearrow$	1	$\searrow$	$-\infty$

4) حل المعادلة $f(x)=0$ ثم استنتج نقاط تقاطع (C_f) مع محور الفواصل.

0.25

- **حل المعادلة $f(x)=0$:**
- $f(x)=0$ يكافئ $(1-2x)e^{2x}=0$

يكافئ $1-2x=0$ لان $e^{2x}\neq 0$

يكافئ $x=\frac{1}{2}$

- **استنتاج نقاط تقاطع (C_f) مع محور الفواصل:**

$(C_f)\cap(x'x)=\left\{\left(\frac{1}{2};0\right)\right\}$

5) أحسب $f(1)$ ثم أرسم (C_f).

- **حساب $f(1)$:**
- $f(1)=(1-2(1))e^{2\times1}=-e^2=-7.39$

www.dzexams.com

$0.25+0.5$	▪ **الرسم :** 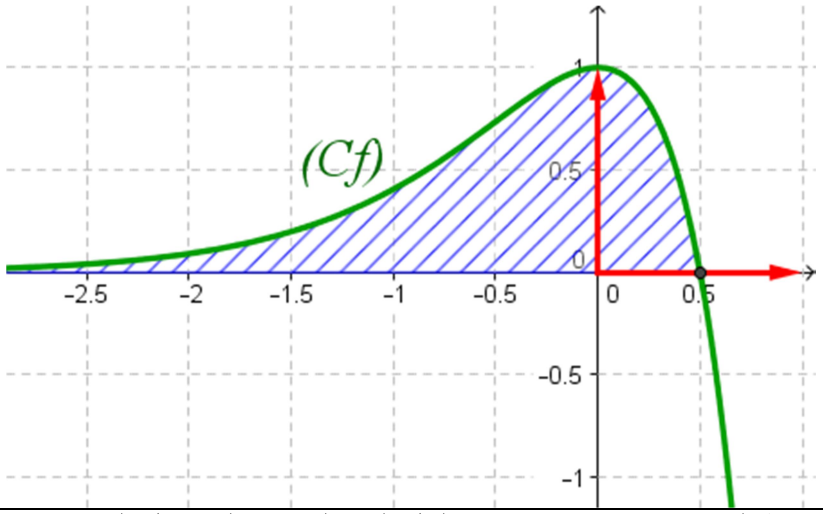
	6) ناقش حسب قيم الوسيط الحقيقي m عدد و إشارة حلول المعادلة ذات المجهول الحقيقي x التالية : $(E): f(x)=f(m)$
01	▪ **مناقشة حلول المعادلة $(E): f(x)=f(m)$:** ▪ حلول المعادلة $f(x)=f(m)$ بيانيا هي فواصل نقاط تقاطع المنحني (C_f) مع المستقيم ذي المعادلة $y=f(m)$ الموازي لحامل محور الفواصل $(x'x)$. تغير قيم $f(m)$ حسب قيم m

m	$-\infty$		0		$\frac{1}{2}$		$+\infty$
$f(m)$	0	↗	1	↘	0	↘	$-\infty$

▪ **المناقشة :**

▪ إذا كان $f(m)\in]-\infty;0[$ أي $m\in\left]\frac{1}{2};+\infty\right[$ المعادلة تقبل حلا موجبا تماما.

▪ إذا كان $f(m)=0$ أي $m=\frac{1}{2}$ المعادلة تقبل حلا موجبا $x=\frac{1}{2}$.

▪ إذا كان $f(m)\in]0;1[$ أي $m\in]-\infty;0[\cup\left]0;\frac{1}{2}\right[$ المعادلة تقبل حلين مختلفين في الاشارة.

▪ إذا كان $f(m)=1$ أي $m=0$ المعادلة تقبل حلا معدوما مضاعفا.

	7) أ) عين العددين الحقيقيين b,a بحيث تكون الدالة F المعرفة بـ : $F(x)=(ax+b)e^{2x}$ دالة أصلية للدالة f على $\mathbb{R}$.
0.5	▪ **تعيين العددين الحقيقيين b,a:** - F دالة أصلية للدالة f على $\mathbb{R}$ يعني $F'(x)=f(x)$ أي $ae^{2x}+(ax+b)\times 2e^{2x}=(1-2x)e^{2x}$ ومنه $(2ax+a+2b)e^{2x}=(1-2x)e^{2x}$ بالمطابقة نجد $\begin{cases}2a=-2\\a+2b=1\end{cases}$ ومنه $\begin{cases}a=-1\\b=1\end{cases}$ أي $F(x)=(-x+1)e^{2x}$

	ب) أحسب بـ cm^2 و بدلالة λ المساحة $S(\lambda)$ للحيز المستوي المحدد بالمنحني (C_f) و المستقيمات التي معادلاتها : $x=\frac{1}{2}, y=0$ و $x=\lambda$ حيث $\lambda<\frac{1}{2}$ ثم أحسب $\lim\limits_{\lambda\to-\infty} S(\lambda)$.
0.5	▪ **حساب $S(\lambda)$:** f دالة مستمرة وموجبة على المجال $\left]-\infty;\frac{1}{2}\right]$ وبالتالي : $S(\lambda)=\int_{\lambda}^{\frac{1}{2}} f(x)dx=\left[F(x)\right]_{\lambda}^{\frac{1}{2}}=\left[(-x+1)e^{2x}\right]_{\lambda}^{\frac{1}{2}}=\left(-\frac{1}{2}+1\right)e-(-\lambda+1)e^{2\lambda}$ أي $S(\lambda)=\left(\frac{1}{2}e+\lambda e^{2\lambda}-e^{2\lambda}\right)\times us=\left(\frac{1}{2}e+\lambda e^{2\lambda}-e^{2\lambda}\right)\times 4cm^2$ ومنه $S(\lambda)=\left(2e+4\lambda e^{2\lambda}-4e^{2\lambda}\right)cm^2$
0.25	▪ **حساب $\lim\limits_{\lambda\to-\infty} S(\lambda)$:** $\lim\limits_{\lambda\to-\infty} S(\lambda)=\lim\limits_{\lambda\to-\infty}\left(2e+4\lambda e^{2\lambda}-4e^{2\lambda}\right)=(2e)cm^2$ لان $\lim\limits_{\lambda\to-\infty} 4\lambda e^{2\lambda}=0$, $\lim\limits_{x\to-\infty} e^{2\lambda}=0$
	II. نسمي $f^{(1)}=f', f^{(2)}=f'', f^{(3)}=f''', \ldots, f^{(n)}$ المشتقات المتتابعة للدالة f . **1) برهن بالتراجع أنه من أجل كل عدد طبيعي غير معدوم n ، $f^{(n)}(x)=2^n(1-n-2x)e^{2x}$.**
0.75	▪ **البرهان بالتراجع أنه من أجل كل عدد طبيعي غير معدوم n ، $f^{(n)}(x)=2^n(1-n-2x)e^{2x}$** - نسمي $P(n)$ هذه الخاصية . **1)** من أجل $n=1$ لدينا : $f^{(1)}(x)=2^1(1-1-2x)e^{2x}=-4xe^{2x}=f'(x)$ ومنه $P(1)$ صحيحة . **2)** نفرض صحة $P(n)$ أي نفرض أن $f^{(n)}(x)=2^n(1-n-2x)e^{2x}$ ونبرهن على صحة $P(n+1)$ أي نبرهن أن $f^{(n+1)}(x)=2^{n+1}(1-(n+1)-2x)e^{2x}=2^{n+1}(-n-2x)e^{2x}$ - لدينا : $f^{(n+1)}(x)=\left(f^{(n)}(x)\right)'=2^n\times\left[-2e^{2x}+(1-n-2x)\times 2e^{2x}\right]$ ومنه $f^{(n+1)}(x)=2^n(-2+2-2n-4x)e^{2x}=2^n\times 2(-n-2x)e^{2x}$ أي : $f^{(n+1)}(x)=2^{n+1}(-n-2x)e^{2x}$ ومنه $P(n+1)$ صحيحة. **3)** حسب مبدأ الاستدلال بالتراجع فإن $P(n)$ صحيحة من أجل كل عدد طبيعي n غير معدوم.
	2) من أجل كل عدد طبيعي غير معدوم n المنحني $(C_{f^{(n)}})$ الممثل للدالة $f^{(n)}$ حيث $f^{(n)}$ الدالة المشتقة من الرتبة n للدالة f يقبل مماسا يوازي حامل محور الفواصل في النقطة $M_n(x_n;y_n)$. **أ) أحسب بدلالة n كلا من x_n و y_n .**

▪ **حساب x_n و y_n بدلالة n:** - $\left(C_{f^{(n)}}\right)$ **يقبل مماسا يوازي** $(x'x)$ يعني $f^{(n+1)}(x)=0$ أي $2^{n+1}(-n-2x)e^{2x}=0$ ومنه $-n-2x=0$ وبالتالي $x=-\frac{1}{2}n$ أي $x_n=-\frac{1}{2}n$ من أجل $x=-\frac{1}{2}n$ لدينا : $y_n=f^{(n)}\left(-\frac{1}{2}n\right)=2^n\left(1-n-2\left(-\frac{1}{2}n\right)\right)e^{2\left(-\frac{1}{2}n\right)}=2^n e^{-n}=\left(2e^{-1}\right)^n$ أي $y_n=\left(2e^{-1}\right)^n$	$0.25+0.25$
ب) بين أن المتتالية (x_n) حسابية يطلب تعيين أساسها و حدها الأول . أحسب $\lim\limits_{n\to+\infty} x_n$.	
▪ **تبيان أن (x_n) متتالية حسابية :** - **لدينا :** $x_{n+1}-x_n=-\frac{1}{2}(n+1)-\left(-\frac{1}{2}n\right)=-\frac{1}{2}n-\frac{1}{2}+\frac{1}{2}n=-\frac{1}{2}$ ومنه (x_n) متتالية حسابية أساسها $r=-\frac{1}{2}$ وحدها الأول $x_0=0$. - **حساب $\lim\limits_{n\to+\infty} x_n$:** $\lim\limits_{n\to+\infty} x_n=\lim\limits_{x\to+\infty}\left(-\frac{1}{2}n\right)=-\infty$	0.5
ج) بين أن المتتالية (y_n) هندسية يطلب تعيين أساسها و حدها الأول . أحسب $\lim\limits_{n\to+\infty} y_n$	
▪ **تبيان أن المتتالية (y_n) هندسية :** - لدينا : $y_n=\left(2e^{-1}\right)^n$ ومنه $y_{n+1}=\left(2e^{-1}\right)^{n+1}=2e^{-1}\times\left(2e^{-1}\right)^n=2e^{-1}\times y_n$ ومنه (y_n) هندسية أساسها $q=2e^{-1}$ وحدها الأول $y_0=1$. - **حساب $\lim\limits_{n\to+\infty} y_n$:** $\lim\limits_{n\to+\infty} y_n=\lim\limits_{n\to+\infty}\left(2e^{-1}\right)^n=0$ لان $-1<2e^{-1}<1$	0.5

✌انتهى تصحيح الموضوع الثاني ❀ بالتوفيق ☺ والنجاح ☺☺ في البكالوريا 2015 ❀

www.dzexams.com